109



BIBLIOTHEQVE
SAINT-SVLPICE MONTREAL

ÉLÉMENTS

DE

GÉOGRAPHIE MODERNE

IMPRIMÉS SOUS LA DIRECTION DE LA SOCIÉTÉ
D'ÉDUCATION DU DISTRICT DE QUÉBEC,

À L'USAGE DES ÉCOLES ÉLÉMENTAIRES.

NOUVELLE ÉDITION

Revue, corrigée et considérablement augmentée

PAR L'AUTEUR.

BIBLIOTHÈQUE
SAINT-SULPICE

MONTRÉAL :
J. B. ROLLAND & FILS, LIBRAIRES-ÉDITEURS
Rue St. Vincent, Nos. 12 et 14.

1877

PROVINCE DU CANADA.

QU'IL SOIT NOTOIRE, que le premier de Février en l'année de Notre Seigneur mil huit cent quarante-huit, J. & O. CRÉMAZIE, de la Cité de Québec, dans le District de Québec, Libraires et Papetiers, ont déposé dans ce Bureau un Pamphlet imprimé dont le titre est dans les termes suivants, c'est-à-savoir :—*Éléments de Géographie Moderne, imprimés sous la direction de la Société d'Education du district de Québec ; à l'usage des Ecoles élémentaires. Troisième Edition, revue, corrigée et considérablement augmentée par* l'AUTEUR, dont ils réclament le droit comme propriétaires.

BUREAU DU RÉGISTRATEUR PROVINCIAL,

Montréal, 1*er Février* 1848.

Je certifie que ce qui précède est une copie vraie et correcte de l'entrée originale, faite dans les *Records* de ce Bureau, dans le vol. A. H., fol. 55.

(Signé.) R. A. TUCKER,
Régistrateur.

Enrégistré conformément à l'acte de la Législature Provinciale, en l'année 1863, par G. et G. E. DESBARATS, imprimeurs-éditeurs, dans le bureau du Régistraire de la Province du Canada.

Les soussignés ont acquis, par acte authentique, de G. E. DESBARATS, la propriété de l'ouvrage décrit dans le privilége ci-dessus.

J. B. ROLLAND ET FILS,
Libraires-Éditeurs.

Enrégistré conformément à l'Acte du Parlement du Canada, en l'année mil huit cent soixante-et-dix-sept, par J. B. ROLLAND ET FILS, au Bureau du Ministre de l'Agriculture à Ottawa.

B. Q. R.
NO. 8274

ÉLÉMENTS

DE

GÉOGRAPHIE MODERNE.

NOTIONS PRÉLIMINAIRES.

La Géographie est une science qui a pour objet la description de la surface de la terre.

La forme de la terre est celle d'une boule un peu aplatie vers deux de ses points opposés qu'on appelle *Pôle arctique*, au nord, et *Pôle antarctique* au sud.

La terre a deux mouvements, celui de rotation, par lequel elle tourne sur elle-même dans l'espace de 24 heures ou d'un jour, et celui de translation, par lequel elle tourne autour du soleil dans l'espace de 365 jours et 6 heures ou une année.

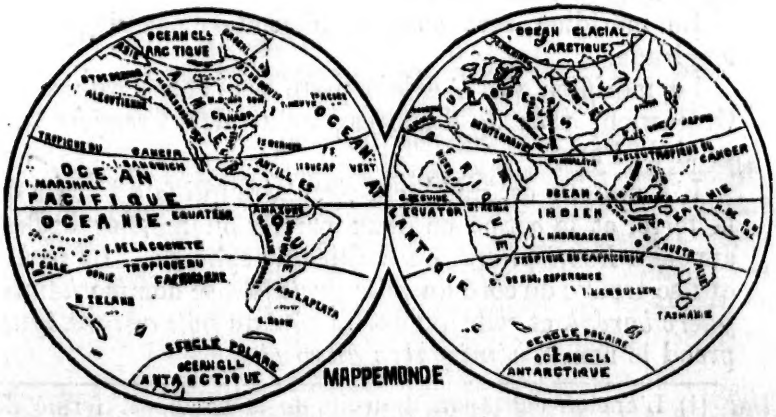

MAPPEMONDE

Cartes.—Pour représenter la terre on se sert de globes ou de cartes géographiques. On distingue : 1o la *Mappe-Monde* qui représente toute la terre coupée en deux

38220

hémisphères dont l'un est appelé l'ancien continent, (1) et l'autre, le nouveau (2) ; 2o la carte générale qui représente une des cinq parties du monde ; 3o la carte particulière, qui ne représente qu'un pays, une province, etc.

Une collection de cartes s'appelle *Atlas.*

Cercles.—Pour fixer les différentes parties qui composent la surface de la terre, on a imaginé des *grands cercles* et des *petits cercles.*

Les grands cercles sont : l'*Horizon*, le *Méridien*, et l'*Équateur.*

L'*Horizon* est un cercle qui limite notre vue de tous côtés sur la surface de la terre.

Le *Méridien* est une ligne circulaire, qui fait le tour de la terre en passant par les deux pôles, et partage la terre en deux hémisphères, l'un vers l'orient, appelé hémisphère *Oriental ;* l'autre vers l'occident, appelé hémisphère *Occidental.*

On appelle cette ligne *Méridien*, parce que, lorsque le soleil est au-dessus, dans la révolution journalière de la terre, il est midi pour tous les peuples qui se trouvent sur cette ligne et dans la partie du monde éclairée par le soleil ; et minuit pour ceux qui se trouvent sur la même ligne dans la partie non éclairée.

Le méridien sert aussi à déterminer les degrés de longitude.

Le méridien des Anglais passe par l'observatoire de Greenwich, près de Londres, celui des Français, par celui de Paris.

L'*Équateur* est une ligne circulaire qui fait le tour de la terre, et la coupe en deux parties ou moitiés égales, appelées *Hémisphère*, ou moitiés de sphères. La partie qui se trouve du côté du *pôle arctique*, se nomme *hémisphère boréal*, et celle qui est du côté du *pôle antarctique*, prend le nom d'*hémisphère austral.*

---

(1) L'ancien continent, à droite de la carte, est formé de l'Europe, l'Asie et l'Afrique.

(2) Le nouveau continent, à gauche de la carte, comprend l'Amérique du Nord et l'Amérique du Sud.

On appelle encore l'Équateur, *ligne Équinoxiale*, parce que le soleil, dans la rotation de la terre de chaque jour, paraît décrire cette ligne sur la terre, ce qui arrive le 20 mars et le 23 septembre de chaque année, temps où, pour toute la terre, les jours sont égaux aux nuits.

Les petits cercles sont : les *Tropiques*, les *Cercles polaires* et les *Parallèles*.

Les *Tropiques* sont deux petits cercles parallèles à l'équateur ; ils en sont éloignés de 23 degrés 27 minutes. L'un des tropiques, situé dans l'hémisphère boréal, s'appelle *tropique du Cancer ;* l'autre situé dans l'hémisphère austral, s'appelle *tropique du Capricorne.*

Ces cercles sont appelés *tropiques*, d'un mot grec qui signifie *tourner*, parce que le soleil y étant arrivé ne les dépasse jamais, mais semble s'y arrêter pour retourner ensuite vers l'équateur. Lorsque le soleil se trouve au tropique du Cancer, ce qui arrive tous les ans vers le 23 juin, c'est alors pour nous le *solstice* d'été et le plus long jour. Lorsqu'il se trouve au tropique du Capricorne, vers le 22 décembre, c'est le *solstice* d'hiver et le jour le plus court de l'année. La chose contraire a lieu pour les peuples qui habitent l'hémisphère austral, c'est-à-dire que vers le 22 décembre, c'est leur solstice d'été et vers le 23 juin leur solstice d'hiver.

Les *Cercles polaires* sont deux petits cercles placés à 23 degrés 27 minutes des pôles.

Les Parallèles sont des petits cercles tracés dans le sens de l'Équateur. Ils servent à déterminer les degrés de latitude.

Zones.—Les deux tropiques et les deux cercles polaires divisent la surface du globe en cinq parties appelées *Zones :* celle qui se trouve entre les deux tropiques porte le nom de zone *torride* ou *brûlante ;* on appelle zones *tempérées*, celles qui se trouvent entre les tropiques et les cercles polaires ; et zones *glaciales*, celles qui se trouvent entre les cercles polaires et les pôles.

Points Cardinaux.—Afin de déterminer la position relative des lieux entre eux, on fait usage de quatre points *cardinaux*, ce sont : le *Nord* ou *Septentrion*, qui

se place ordinairement au haut de la carte géographique ; le *Midi* ou *Sud*, qui se place au bas ; l'*Orient*, *Est* ou *Levant*, qui se place à la droite de la personne qui regarde la carte ; et l'*Occident*, *Ouest* ou *Couchant*, qui se place à sa gauche.

Entre ces quatre points, il y a les points *Collatéraux :* le *nord-est*, entre le nord et l'est ; le *sud-est*, entre le sud et l'est ; le *nord-ouest*, entre le nord et l'ouest ; et le *sud-ouest*, entre le sud et l'ouest.

Les points cardinaux et les points collatéraux forment ce qu'on appelle la *rose des vents*.

Pour *s'orienter*, on se tourne du côté du soleil levant alors on a l'*est* en face, l'*ouest* en arrière, le *nord* à gauche et le *sud* à droite.

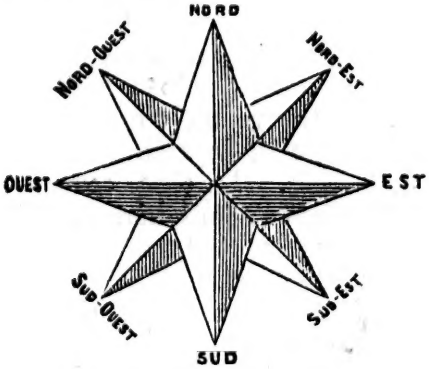

ROSE DES VENTS.

Longitude.—On appelle *Degrés de Longitude*, les lignes que l'on voit tracées sur les cartes dans le même sens que le méridien, et qui, comme lui, passent par les pôles du monde. Ils servent à marquer à quelle distance les diverses parties du monde se trouvent éloignées du méridien.

Il y a deux sortes de degrés de longitude, savoir : les degrés de longitude orientale qui sont à la droite du méridien, et les degrés de longitude occidentale qui se trouvent à la gauche du méridien ; ces deux espèces de degrés se comptent depuis 0 jusqu'à 180.

Latitude.—On appelle *Degrés de Latitude*, les lignes que l'on voit sur les cartes tracées dans le même sens que l'équateur. Ils servent à marquer à quelle distance de l'équateur se trouvent les diverses parties du monde.

Il y a deux sortes de degrés de latitude, savoir : les degrés de latitude septentrionale, et ceux de latitude méridionale. Les premiers se comptent depuis 0 jusqu'à 90 au-dessus de l'équateur ; les seconds se comptent de la même manière au-dessous de l'équateur.

Un degré vaut à peu près 25 lieues, excepté pour ceux des longitudes, qui diminuent à mesure qu'ils s'éloignent de l'équateur.

QUESTIONNAIRE.

Qu'est-ce que la géographie?

Quelle est la forme de la terre ?

Qu'entend-on par *pôles ?* quels sont leurs noms ?

Quels sont les mouvements de la terre ?

A quoi servent les *cartes* géographiques ?

Que représente la *Mappe-Monde* ? la carte générale ? la carte particulière ?

Où se trouve l'ancien continent sur la *Mappe-Monde* et de quoi est-il composé ? le nouveau ?

Quel nom donne-t-on à une collection de cartes ?

A quoi servent les cercles?

Quels sont les grands cercles ?

Qu'est-ce que l'*Horizon ?*

Qu'est-ce que le *Méridien ?* pourquoi lui donne-t-on ce nom ? à quoi sert-il encore ?

Par où passe le méridien des Anglais? celui des Français ?

Qu'est-ce que l'*Équateur* ?

Quel autre nom donne-t-on à l'équateur ? pourquoi ?

Quels sont les petits cercles ?

Que sont les *tropiques* ? nommez-les.

Qu'appelle-t-on *cercles polaires ?*

Que sont les *parallèles ?* à quoi servent-ils ?

Qu'appelle-t-on *zones* ? nommez chacune d'elles.

Comment nomme-t-on les points entre le Nord, le Sud, etc. ?

Qu'appelle-t-on *rose des vents ?*

Quelle est la manière de s'orienter ?

Qu'appelle-t-on degrés de longitude ?

Combien y en a-t-il de sortes?

Nommez les *points cardinaux.* Quel usage en fait-on ?

Qu'appelle-t-on degrés de latitude ?

Combien y en a-t-il de sortes ?

Quelle est la valeur d'un degré ?

Pour les degrés de longitude, la valeur est-elle partout la même ?

TERMES GÉOGRAPHIQUES

Le globe terrestre se divise en deux grandes parties : la terre en occupe un quart, et l'eau en couvre les trois autres quarts.

DIVISIONS NATURELLES DE LA TERRE :

On appelle *Continent*, une grande étendue de terre non interrompue par les mers.

Une *île* est une partie de terre beaucoup plus petite qu'un continent, et entourée d'eau de toutes parts.

On appelle *Archipel*, un espace assez considérable de mer couvert d'îles.

Une *Presqu'île* ou *Péninsule* est une partie de terre entourée d'eau et qui ne tient à un continent que par un seul point.

Un *Isthme* est une langue de terre qui unit une presqu'île à un continent, ou un continent à un autre continent.

Un *Cap* ou *Promontoire* est une pointe de terre élevée qui s'avance dans la mer.

Une *Montagne* est une grande élévation de terre ou de rochers. Un passage entre deux montagnes s'appelle *défilé pas* ou *col*.

Une *Chaîne de Montagnes* est la réunion successive de plusieurs montagnes.

On appelle *Pic*, une montagne isolée et qui s'élève en forme de *cône*.

Un *Volcan* est une montagne qui lance du feu ; son ouverture s'appelle *cratère*.

Un *désert* est une étendue de terre stérile et inhabitée.

Une *oasis* est un endroit fertile au milieu du désert.

Une *plaine* désigne un terrain plat, d'une certaine étendue.

Un *plateau* est une vaste plaine entourée par des hauteurs.

Un *versant* est un des côtés d'une montagne ou d'un bassin.

Un *tunnel* est un passage sous les eaux ou sous une montagne.

DIVISIONS NATURELLES DES EAUX :

On appelle *Mer* ou *Océan*, l'immense étendue d'eau salée qui couvre près des trois quarts du globe.

Les *Mers intérieures* sont celles qui se trouvent dans l'intérieur des terres.

Un *Golfe* ou une *Baie* est une étendue d'eau qui s'avance dans les terres.

Un *Détroit* est une portion de mer resserrée entre deux terres, qui fait communiquer ensemble deux mers ou deux parties de mer.

Un *Lac* est une grande étendue d'eau qui se trouve dans les terres.

La *Source* d'un fleuve ou d'une rivière est l'endroit où ils commencent à couler ; et leur *Embouchure* est l'endroit où ils entrent dans la mer ou dans une autre rivière ou fleuve.

Un *affluent* est une rivière ou un fleuve dont l'embouchure se trouve dans une autre rivière ou fleuve.

On appelle *Confluent*, l'endroit où deux rivières se réunissent.

Un *Canal* est une espèce de rivière faite par les hommes pour faire communiquer deux rivières entre elles, ou une rivière avec une mer, ou deux mers entre elles.

Une *Rivière* est un cours d'eau qui se jette dans un fleuve.

Un *Fleuve* est une rivière considérable qui se jette dans la mer.

Une *Cataracte* ou *Cascade* ou *Chute* est un saut que font les eaux d'un fleuve ou d'une rivière en tombant d'une hauteur un peu considérable.

Un *Rapide* est une masse d'eau qui franchit brusquement un amas dangereux de rochers.

On appelle *Bancs-de-Sable* ou *Bas-Fonds* des endroits où la mer offre peu de profondeur.

Une *Rade* est une petite étendue d'eau enfoncée dans les terres.

Un *Port* est le rivage qui borde une ville sur la mer ou sur un fleuve, et où les vaisseaux jettent l'ancre.

QUESTIONNAIRE.

Comment se divise le globe terrestre ?

L'eau en occupe-t-elle une plus grande partie que la terre?

Qu'est-ce qu'un continent? une île? un archipel ? une presqu'île ? un isthme ?

Qu'est-ce qu'un cap ? une montagne? une chaîne de montagnes ? un pic ? un volcan ?

Comment appelle-t-on l'ouverture d'un volcan ?

Qu'est-ce qu'un désert ? une oasis ? un plateau ? une plaine? un versant? un tunnel ?

Qu'est-ce qu'une mer ? une mer intérieure ? un golfe ? un détroit? un lac ? une source ? une embouchure ? un affluent ? un confluent ?

Qu'appelle-t-on canal? rivière? fleuve ?

Qu'est-ce qu'une cataracte ? cascade ou chute ? un rapide ? un écueil ou récif ? un bas-fonds ?

Qu'est-ce qu'une rade ? un port ?

PRINCIPALES MERS DU GLOBE.

Les mers se divisent en mers extérieures, qui entourent les continents, et en mers intérieures, situées au milieu des terres.

Les mers extérieures sont au nombre de cinq, savoir : l'océan Atlantique, le Grand océan ou océan Pacifique, la mer des Indes, l'océan Glacial Arctique, et l'océan Glacial Antarctique.

Les principales mers intérieures sont au nombre de quatre, savoir : la mer Baltique, la mer Méditerranée, la mer Rouge et la mer Caspienne. Il y a encore la mer de Marmara, la mer Noire et la mer d'Azof.

QUESTIONNAIRE.

Comment se divisent les mers ?

Combien y a-t-il de mers extérieures ? énumérez-les.

Combien y a-t-il de principales mers intérieures ? faites-en l'énumération.

DIVISIONS DU MONDE.

Le monde est divisé en cinq parties, [illegible] l'Europe, l'Asie, l'Afrique, l'Amérique et l'Océ[illegible].

D'après les géographies les plus mod[illegible]nes, la population du monde entier est d'environ 1,350 millions d'habitants, répartis comme suit :

Amérique	80 millions.
Europe	288 millions.
Asie	800 millions.
Afrique	150 millions.
Océanie	32 millions.

Races humaines.—Les hommes qui habitent la terre diffèrent entre eux par la couleur, la taille, les traits du visage, les cheveux, etc. D'après ces différences, on distingue trois grandes *races*, savoir :

La *blanche*, appelée aussi *caucasique*, qui a peuplé l'Europe, l'ouest de l'Asie et le nord de l'Afrique, et qui a établi des colonies dans toutes les parties du monde. Elle est la plus civilisée. La *jaune*, qui occupe le centre

et l'est de l'Asie, l'Océanie et l'Amérique. La *nègre*, qui occupe le centre et le sud de l'Afrique, et une partie de l'Océanie.

Il y a des races secondaires, les principales sont : la *cuivrée* ou *américaine*, la *malaise*, etc.

Religions.—On compte sur la terre quatre religions principales, savoir : 1o la religion chrétienne, établie par Jésus-Christ ; elle compte environ 400 millions ; 2o le judaïsme ou religion juive, fondée sur l'ancien testament, 5 millions ; 3o le mahométisme ou islamisme, fondé au septième siècle par Mahomet, et dont la doctrine est contenue dans le Koran ou Alcoran, 170 millions ; 4o le paganisme ou polythéisme, qui admet plusieurs dieux 775 millions.

Gouvernement. — Une grande étendue de terrain forme un *pays*, une *contrée*, etc. Un *état* est un pays soumis à un même gouvernement.

On peut diviser les formes des gouvernements en trois : la *monarchie* où la souveraineté est représentée par un *roi*, un *empereur*, *etc.*; l'*aristocratie* où elle est entre les mains d'une certaine classe noble ou riche ; et la *démocratie* ou *république* où le gouvernement du peuple est reconnu.

Une *confédération* est la réunion de petites monarchies, républiques ou provinces pour l'administration des intérêts généraux.

QUESTIONNAIRE.

En combien de parties le monde est-il divisé, et quelles sont-elles ?

Quelle est la population approximative du monde, et de chacune de ses parties ?

En quoi diffèrent les hommes qui habitent la terre ?

En combien de races la population du globe est-elle divisée, et quelles sont-elles ?

Quelles sont les races secondaires ?

Combien compte-t-on de religions sur la terre ? énumérez-les, en donnant le nombre approximatif de leurs adhérents.

Qu'est-ce qu'un pays ? un état ?

Combien y a-t-il de formes de gouvernement ?

Par qui, dans chacune d'elles, la souveraineté est-elle représentée ?

Qu'est-ce qu'une confédération ?

AMÉRIQUE.

L'Amérique est un vaste continent borné au nord, par l'Océan Glacial Arctique ; à l'est, par la baie de Baffin et l'Océan Atlantique ; au sud, par le Détroit de Magellan ; à l'ouest, par l'Océan Pacifique.

Sa plus grande longueur est d'environ 3,200 lieues, et sa plus grande largeur de 1,300.

La population de l'Amérique est d'environ 80 millions, divisée comme suit, savoir : 55 millions de blancs, 7 millions de sauvages, 6 millions de nègres et 12 millions de races mêlées.

On la divise en deux parties : l'*Amérique Septentrionale* et l'*Amérique Méridionale*. Elles sont unies par l'*Isthme de Panama*.

Historique.—L'Amérique a été découverte en 1492, par un navigateur Génois nommé Christophe Colomb. Le nom d'Amérique lui vient de celui d'un voyageur appelé *Américo Vespucci*, qui visita ce continent plusieurs années après Colomb.

QUESTIONNAIRE.

Quelles sont les bornes de l'Amérique ?

Quelle est sa plus grande longueur, et sa plus grande largeur ?

Quelle est la population de l'Amérique ?

Donnez quelques notions historiques sur ce continent ?

AMÉRIQUE SEPTENTRIONALE.

L'Amérique Septentrionale est bornée au nord, par la mer Glaciale ; à l'est, par la baie de Baffin et l'Océan Atlantique ; au sud, par l'Isthme de Panama ; à l'ouest, par l'Océan Pacifique.

Baies, Golfes et Détroits.—Les principales baies de l'Amérique Septentrionale sont la baie de *Baffin*, la baie d'*Hudson* et la baie des *Chaleurs*. Les golfes sont le golfe *Saint-Laurent*, le golfe du *Mexique* et le golfe de *Californie* ou la mer *Vermeille*.

Les détroits sont ceux de *Béhring*, entre l'Amérique et l'Asie; ceux de *Lancaster* et *Borrow*, entre la baie de Baffin et l'Océan Glacial Arctique; celui de *Davis*, entre la baie de Baffin et l'Océan Atlantique; celui de *Belle-Isle*, entre le Labrador et Terreneuve.

Fleuves et Lacs.—Les fleuves sont le *MacKenzie*, qui a sa source dans les montagnes Rocheuses et se jette dans l'Océan Glacial Arctique; le *Saint-Laurent*, qui sort du lac Ontario et se jette dans le golfe Saint-Laurent; le *Mississippi*, qui a sa source près du lac Supérieur et se jette dans le golfe du Mexique; la rivière *Colombie* ou *Columbia*, qui descend des Montagnes Rocheuses et se jette dans l'Océan Pacifique; le *Colorado*, qui se jette dans la mer *Vermeille*; le *Missouri*, principal affluent du Mississipi.

Les principaux lacs de l'Amérique Septentrionale sont les lacs du *Grand Ours*, des *Esclaves*, les lacs *Supérieur*, *Michigan*, *Huron*, *Érie*, *Ontario* et *Champlain*, enfin le *Grand Lac Salé*, dans le territoire de l'Utah.

Iles et presqu'îles. — Les principales îles sont : l'*Islande*, le *Groënland*, les îles du golfe Saint-Laurent, et celles du golfe du Mexique.

Les îles du golfe Saint-Laurent sont : *Terreneuve*, le cap *Breton*, l'île du *Prince Édouard*, les îles de la *Magdeleine* et l'île d'*Anticosti*.

Les îles du golfe du Mexique sont les *Antilles*, qui comprennent un grand nombre d'îles.

Les principales presqu'îles sont : celles de la *Nouvelle-Écosse*, du *Labrador*, de *Boothia*, de *Melville*, de la *Floride*, de la *Californie* et celle d'*Alaska*.

Montagnes.—Les chaînes de montagnes sont les *Alleghanys* ou *Apalaches* et les *Montagnes Rocheuses*, du nord au sud; les *Laurentides*, de l'est à l'ouest, sur la rive nord du Saint-Laurent.

QUESTIONNAIRE.

Quelles sont les bornes de l'Amérique Septentrionale ?

Quelles sont les principales baies de l'Amérique Septentrionale ? les golfes ? les détroits ?

Quels sont les principaux fleuves ? les lacs ?

Donnez quelques notions sur les principales îles du golfe Saint-Laurent.

Quelles sont les îles du golfe du Mexique ?

Nommez les principales presqu'îles de l'Amérique Septentrionale.

Quelles sont les chaînes de montagnes ?

DIVISION DE L'AMÉRIQUE SEPTENTRIONALE.

L'Amérique Septentrionale se divise en cinq parties principales, savoir : au nord, les possessions Anglaises ; le territoire Russe, maintenant territoire d'Alaska ; au milieu, les états de l'Union Américaine, appelés États-Unis d'Amérique ; au sud, le Mexique et l'Amérique Centrale.

POSSESSIONS ANGLAISES.

Les possessions Anglaises, dans l'Amérique Septentrionale, sont la Puissance du Canada et l'île de Terreneuve.

Cette dernière possession est appelée avant longtemps à faire partie de la Confédération Canadienne.

QUESTIONNAIRE.

Comment se divise l'Amérique Septentrionale ?

Quelles sont les possessions Anglaises de l'Amérique du Nord ?

PUISSANCE DU CANADA.

La Puissance du Canada est bornée au nord, par l'Océan Arctique et la baie de Baffin ; à l'est, par le méridien de l'anse au Blanc-Sablon, sur le détroit de

Belle-Ile, le golfe St. Laurent et l'Océan Atlantique ; au sud-est, par l'Etat du Maine ; au sud, par les États-Unis ; à l'ouest, par l'Océan Pacifique et le Territoire d'Alaska. Elle comprend les provinces de *Québec*, d'*Ontario*, de la *Nouvelle-Écosse*, du *Nouveau-Brunswick*, du *Manitoba*, de la *Colombie anglaise* et de l'Ile du *Prince-Édouard*.

Historique. — Le Canada fut découvert, en 1534, par Jacques-Cartier, navigateur, de Saint-Malo, en France. En 1760, il fut conquis par l'Angleterre, et par le traité de Versailles en 1763, il lui fut définitivement cédé.

Le Canada en 1791, par un acte du Parlement de la Grande-Bretagne, fut divisé en deux provinces, sous le nom de Haut et de Bas-Canada. Un nouvel acte du même Parlement, passé en 1840, et proclamé et mis en force le 5 février 1841, a réuni de nouveau ces deux provinces en une seule, sous le nom de Province du Canada. Enfin, par un autre acte du même Parlement, mis en force le 1er juillet 1867, le Bas-Canada, sous le nom de Province de Québec, le Haut-Canada, sous celui de Province d'Ontario, la Nouvelle-Écosse et le Nouveau-Brunswick, ont formé la Puissance du Canada. Plus tard, la Colombie Anglaise, la province de Manitoba et l'île du Prince-Édouard, sont entrées dans cette confédération. L'île de Terreneuve peut, quand elle le demandera, faire partie de la Puissance du Canada, aux conditions qui seront acceptées par le Canada et cette colonie.

La capitale de la Puissance est Ottawa, ville agréablement située sur la rivière Outaouais, dans la province d'Ontario.

Gouvernement.—Le gouvernement est fédéral constitutionnel. Il comprend trois pouvoirs : un Gouverneur-Général, nommé par la couronne ; une Chambre Haute, appelée *Sénat* ; une Chambre Basse ou Chambre d'Assemblée, appelée *Chambre des Communes*. La Chambre des Communes se compose actuellement de 206 membres, dont 65 représentent la Province de Québec, 88 celle d'Ontario, 21 la Nouvelle-Écosse, 16 le Nouveau-Brunswick, 4 Manitoba, 6 la Colombie Anglaise et 6 l'Ile du Prince-Édouard.

Population.—La population totale de la Puissance du Canada est d'environ 4,000,000 d'habitants.

QUESTIONNAIRE.

Quelles sont les bornes de la Puissance du Canada ?

Quelles sont les provinces qui la composent ?

Quand et par qui le Canada fut-il découvert ?

Par qui le Canada fut-il conquis en 1760 ?

Quand fut-il définitivemen cédé ?

Donnez quelques détails su l'histoire politique du Canad depuis 1791 jusqu'à 1867.

Quelle est la capitale de l Puissance du Canada ? l gouvernement ? la popula tion ?

PROVINCE DE QUÉBEC.

La province de Québec est séparée de la provinc d'Ontario par une ligne, qui commence près de la Pointe à-Beaudet, sur le bord nord du lac Saint-François, se pro longeant au nord-ouest, à l'angle occidental de la sei gneurie de Rigaud, puis au nord quart-nord-est, jusqu'à la rivière des Outaouais, qu'elle remonte jusqu'au la Témiscaming ; de là, cette ligne s'étend jusqu'au terri toire du Nord-Ouest.

Montagnes.—Les principales montagnes de la province de Québec sont le mont *Oxford*, dans le comté de Sher brooke, 4,500 pieds d'altitude, c'est la plus haute monta gne de la province de Québec ; les montagnes de *Sainte-Anne* ou *Notre-Dame*, dans le district de Gaspé, dont la hauteur est de 3,973 pieds ; le cap *Tourmente*, dans le district de Québec, haut de 1,853 pieds ; la montagne de *Belœil*, dont la hauteur est de 1,100 pieds, et sur le sommet de laquelle se trouve un lac ; celle d'*Yamaska*, de *Rougemont*, de *Sainte-Thérèse* ou le mont *Johnson*, et la montagne de *Montréal*, située dans l'île de ce nom.

Iles et lacs.—Les principales îles sont l'île de *Montréal*, située au confluent du Saint-Laurent et de l'Ottawa, l'île *Jésus*, l'île d'*Orléans*, l'île d'*Anticosti*, la *Grosse-Ile*, l'île aux *Coudres*, l'île du *Pads*, l'île *Perrot*, et enfin l'île *Sainte Hélène*, toutes situées dans le fleuve Saint-Laurent ; et l'*Ile-aux-Noix*, dans le haut de la rivière Chambly.

Les lacs de la province de Québec sont le lac *Témiscaming*, le lac *Saint-Jean*, traversé par le Saguenay ; le lac *Champlain*, situé presque entièrement dans les États-Unis; la partie comprise dans la province de Québec, s'appelle baie de *Missiskoui*; les lacs *Memphrémagog* et *Mégantic*, le lac *Témiscouata*, le lac des *Deux-Montagnes*, le lac *Saint-François*, les lacs *Saint-Louis* et *Saint-Pierre*, qui sont des élargissements du fleuve Saint-Laurent, et une foule d'autres.

Fleuves et Rivières.— Les principaux fleuves et rivières sont le *Saint-Laurent*, l'un des plus grands fleuves de l'univers, dont le cours est d'environ 740 lieues, ce fleuve forme la célèbre chute connue sous le nom de *Chute de Niagara* ; la rivière *Outaouais* ou *Ottawa*, au nord du Saint-Laurent; le *Saint-Maurice* la rivière *Saint-Charles*, près de Québec, le *Saguenay*, le *Betsiamis*, le *Saint Jean* et le *Nitigamiou*, vers le détroit de Belle-Isle; et enfin, la rivière *Montmorency*, où se trouve la chute de ce nom. Au sud du fleuve Saint-Laurent, sont les rivières *Chambly*, le *Saint-François* et la rivière *Chaudière*, qui renferme une jolie chute connue sous le nom de *Saut de la Chaudière*.

Canaux.—Les canaux de la Province de Québec sont ceux de *Lachine* et de *Beauharnois* qui rendent le Saint-Laurent navigable dans toute sa longueur; de *Greenville*, qui permet de naviguer sur l'Outaouais; de *Chambly*, entre le Saint-Laurent à Sorel et le lac Champlain.

Chemins de fer.—La province de Québec possède les chemins de fer de *Champlain* et du *Saint-Laurent*, le chemin de jonction de *Mégantic*, ceux de Montréal à Ottawa et à Lachine, celui de *Lanoraie* à Joliette; celui de *Stanstead*, *Shefford* et *Chambly*; le chemin à lisses en bois, de Québec à Gosford ; celui de Lévis et Kennébec; le *Grand-Tronc*, qui traverse notre province d'une extrémité à l'autre ; le grand chemin de fer *Intercolonial* d'Halifax à la Rivière-du-Loup; le chemin de fer de *Québec, Montréal, Ottawa et Occidental*, destiné à relier

Québec, Montréal et Ottawa et qui est en voie de construction ; enfin, celui de Montréal à St. Jérôme qui vient d'être terminé.

La Province de Québec se divise en 20 districts, qui se subdivisent en 60 comtés, lesquels forment des paroisses et townships.

Districts.	Comtés.	Chefs-lieux.
Québec.	Portneuf, Québec, Lévis, Montmorency, Lotbinière.	Cité de Québec.
Montréal.	Hochelaga, Jacques-Cartier, Laval, Vaudreuil, Soulanges, Laprairie, Chambly, Verchères.	Cité de Montréal.
Trois-Rivières.	Maskinongé, St. Maurice, Champlain, Nicolet.	Cité des Trois-Rivières.
Gaspé.	Gaspé, Bonaventure.	New-Carlisle et Percé.
St. François.	Richmond, Wolfe, Compton, Stanstead.	Ville de Sherbrooke.
Kamouraska.	Kamouraska, Témiscouata.	Paroisse de St. Louis de Kamouraska.
Ottawa.	Ottawa, Pontiac.	Village d'Aylmer.
Terrebonne.	Argenteuil, Deux-Montagnes, Terrebonne.	Village Sainte-Scholastique.
Joliette.	Joliette, Montcalm, L'Assomption.	Ville de Joliette
Richelieu.	Richelieu, Yamaska, Berthier.	Ville de Sorel.

Districts.	Comtés.	Chefs-lieux.
Saguenay.	Charlevoix, Saguenay.	Paroisse de la Malbaie.
Chicoutimi.	Chicoutimi.	Chicoutimi.
Rimouski.	Rimouski.	Ville de Saint-Germain de Rimouski.
Montmagny.	L'Islet, Montmagny, Bellechasse.	Village de Montmagny.
Beauce.	Beauce, Dorchester.	Paroisse de St. Joseph de la Beauce.
Arthabaska.	Mégantic, Arthabaska, Drummond.	Paroisse de St. Christophe d'Arthabaska.
Bedford.	Shefford, Missisquoi, Brome.	Nelsonville (township de Dunham.)
St. Hyacinthe.	St. Hyacinthe, Bagot, Rouville.	Ville de St. Hyacinthe.
Iberville.	St. Jean, Napierville, Iberville.	Ville de St. Jean
Beauharnois.	Châteauguay, Beauharnois, Huntingdon.	Ville de Beauharnois.

Villes.—Les cités de la province de Québec sont : *Québec*, capitale de la Province, fut fondé en 1608, par M. de Champlain. C'est près de cette ville que se donna, le 12 Septembre 1759, la bataille qui fit perdre aux Français la possession du Canada et ses dépendances, alors connu sous le nom de *Nouvelle-France*. Population 60,000 habitants. — *Montréal*, fondé en 1642, est situé dans l'île de ce nom ; c'est la métropole commerciale de la Puissance. Population 120,000 habitants.

Les principales autres villes sont les Trois-Rivières, près de laquelle se trouvent les mines et forges de Saint-Maurice; New-Carlisle, dans le district de Gaspé, Saint-Jean-Dorchester, Saint-Hyacinthe, (siége de l'évêché), Sorel, Chambly, Montmagny, Pointe-Lévis, Sherbrooke, (siége de l'évêché), l'Assomption, Plessisville, Rimouski, (siége de l'évêché) Salaberry, Berthier, Longueuil, Beauharnois, Joliette, etc.

Description générale.–La province de Québec possède trois universités: celles de McGill, de Lennoxville et l'Université Laval, et 16 colléges où la jeunesse canadienne reçoit une éducation soignée et variée; 3 Écoles Normales, 4310 écoles primaires, et 245 secondaires et spéciales. Les principaux Séminaires ou Colléges sont ceux de Québec, de Montréal, de Nicolet, d'Yamaska, de Sainte-Anne, de Sainte-Thérèse, de Sainte-Marie à Montréal, de Sainte-Marie do Manoir, de Saint Hyacinthe, de Joliette, des Trois-Rivières, de l'Assomption, de Lévis, de Saint-Laurent, de Saint-Germain de Rimouski, de Rigaud, le collége *Morrin* et le *High-School* de Québec et de Montréal. Les Ecoles Normales de Montréal et de Québec, les écoles d'agriculture de Sainte-Anne et de l'Assomption. L'Institution des sourds-muets, et celle des aveugles, près de Montréal. Les personnes du sexe prennent leur éducation dans les couvents des Dames Religieuses Ursulines, Religieuses du Sacré-Cœur, des Dames de la Congrégation, de l'Hôpital-Général et des Sœurs des SS. Noms de Jésus-Marie, de Ste. Anne, et de Ste. Croix. Ces communautés ont des établissements ou maisons d'école dans diverses parties de la province de Québec. Les religieuses de la Charité et celles du Bon-Pasteur ont aussi d'excellentes écoles pour les jeunes filles.

Les articles de commerce que fournit la province de Québec sont le bois de construction, la potasse, la perlasse, les huiles, le poisson, les viandes salées, les pelleteries et les grains.

Le climat est un des plus salubres de l'univers; il fait très-froid l'hiver et très-chaud l'été, mais la température est toujours des plus agréables et des plus propres à former des races robustes

Gouvernement.—Le gouvernement se compose d'un *Lieutenant-Gouverneur*, d'un *Conseil Exécutif* d'une *Assemblée Législative* et d'un *Conseil Législatif* nommé à vie.

Les comtés envoient chacun deux représentants en Parlement, l'un au Parlement Fédéral et l'autre au Parlement Provincial; les cités de Québec et de Montréal,

six chacune, et les villes de Trois-Rivières et de Sherbrooke deux chacune.

Population.—La population de la province de Québec, d'après le recensement de 1871, est de 1,191,575 habitants, dont la grande majorité est d'origine française, et catholique.

QUESTIONNAIRE.

Indiquez la ligne de séparation entre la province de Québec et celle d'Ontario.

Donnez quelques détails sur les principales montagnes de cette province.

Quelles sont les principales îles de notre province? les lacs?

Quels sont les principaux fleuves et rivières, ainsi que les chutes les plus remarquables qu'ils forment?

Quels sont les canaux de la province de Québec? les chemins de fer?

Faites-nous connaître les divisions civiles et politiques de la province de Québec.

Nommez les districts; les comtés.

Faites-nous connaître les principales villes de notre province.

Donnez quelques notions historiques sur les villes de Québec, Montréal, etc.

Parlez-nous des maisons d'éducation de notre province; de son commerce.

Faites-nous connaître son gouvernement; sa population.

PROVINCE D'ONTARIO.

Les bornes de la province d'Ontario sont, au nord, le territoire de la baie d'Hudson; à l'est, la province de Québec; au sud et à l'ouest, elle est bornée par une ligne qui commence au village Saint-Régis, sur la rive droite du lac Saint-François, d'où elle se prolonge par le milieu du fleuve Saint-Laurent, du lac Ontario, de la rivière Niagara, du lac Érié, de la communication par eau entre le lac Érié et le lac Huron, et enfin qui passe par le milieu du lac Supérieur, de la rivière et du lac de la Pluie jusqu'au lac des Bois.

Montagnes.—Le prolongement des *Laurentides*, la colline de *Queenstown*, et quelques autres chaînes de granit.

Iles et Lacs.—Les lacs, outre ceux que nous avons nommés en expliquant les bornes de cette province, sont le lac *Nipissing*, les lacs *Simcoe* et *Sainte-Claire*.

Les quatre grands lacs sont le lac *Supérieur* de 500 lieues de circuit, les lacs *Huron*, *Érié* et *Ontario*.

Les principales îles sont celles du *Grand Manitoulin* dans le lac Huron et les *Mille-Iles* dans le Saint-Laurent au pied du lac Ontario.

Rivières.—Les principales rivières sont le *Saint-Laurent*, l'*Outaouais*, l'*Espagnole*, celle de la *Lune*, (Muskoka), la *Tamise*, la *Grande-Rivière*, le *Trent*, le *Madawaska*, le *Mississippi* et le *Rideau*.

Canaux et Chemins de Fer.—Les canaux sont ceux de *Welland*, entre le lac Érié et Ontario ; les canaux du *Saint-Laurent* ou *Cornwall*, entre Prescott et le lac Saint-François ; le canal *Rideau*, le canal de *Burlington* et le canal *Desjardins*.

Les chemins de fer de la province d'Ontario sont ceux de *Buffalo* à Goderich, de *Brockville* et de l'*Ottawa*, de l'*Érié* et de l'*Ontario*, du *Great Western*, du *Grand-Tronc*, qui relie les cités de Québec, Montréal, Kingston et Toronto, de *Niagara*, de *Simcoe* et *Huron*, et de *Sainte-Catherine*.

La Province d'Ontario est divisée en 22 districts, qui se subdivisent en 88 comtés et en villes dont chacun envoie des députés pour les représenter en Parlement.

Son gouvernement est semblable à celui de la province de Québec, seulement il n'a pas de *Conseil Législatif*.

Villes.—Les principales villes de la province d'Ontario sont *Ottawa*, capitale de la Puissance du Canada ; *Kingston* et *Toronto*, cette dernière capitale de la province d'Ontario, toutes deux situées sur le lac Ontario ; *Niagara*, sur le fleuve Saint-Laurent, *Brockville*, *Prescott*, *London*, *Queenstown* et *Hamilton*.

Description générale.—Le climat de la province d'Ontario est plus doux que celui de la province de Québec : l'air y est salubre, excepté dans le voisinage des lacs, où les étrangers sont exposés aux maladies connues sous le nom de fièvres tremblantes.

Les produits sont le blé, et autres grains, le tabac et les fruits. C'est de cette province que viennent les bois de construction exportés en Angleterre.

Les principales religions sont celles des Méthodistes, des Baptistes, des Presbytériens et des Anglicans. La religion catholique y compte environ 300 mille âmes.

Population.—La population de la province d'Ontario est de 1,620,851 habitants, d'origine Anglaise, Française, Écossaise, Irlandaise et Américaine.

QUESTIONNAIRE.

Quelles sont les bornes de la province d'Ontario ?

Faites-nous connaître ses montagnes ; ses principales îles ; ses principaux lacs; fleuves et rivières ; ses canaux ; ses chemins de fer.

Quelles sont ses divisions civiles et politiques?

Quel gouvernement a-t-elle ?

Quelles sont ses principales villes ?

Donnez quelques notions sur son climat ; sur ses productions ; sur les religions qu'elle professe.

Quelle est la population avec les races qui la composent ?

PROVINCE DU NOUVEAU-BRUNSWICK.

Le Nouveau-Brunswick, séparé de la Nouvelle-Écosse en 1785, est borné au nord par la province de Québec ; à l'est, par le golfe Saint-Laurent et la Nouvelle-Écosse ; au sud, par la Baie de Fundy ; à l'ouest, par l'état du Maine.

Baies et rivières.—Les baies du Nouveau-Brunswick sont la baie des *Chaleurs*, la baie de *Miramichi*, la baie de *Fundy*, la baie de *Shoodie* ou de *Passamaquoddy*, qui le sépare du Maine.

Les rivières de cette province sont le *Saint-Jean*, la rivière *Sainte-Croix*, le *Miramichi*, le *Ristigouche*, le *Richibouctou* et le *Petitcoudiac*.

Cette province est divisée en 16 comtés, qui envoient 41 membres à la Législature Provinciale et 16 au Parlement Fédéral.

Villes.—Les villes sont celles de *Frédéricton*, la capitale sur la rivière Saint-Jean ; de *Saint-Jean*, à l'entrée de la même rivière ; de *Saint-André*, à l'embouchure de la rivière Sainte-Croix.

Description générale.—Le climat est à peu près celui de la province de Québec, mais le froid y est moins grand. Le sol y est assez fertile. Il y a beaucoup de plâtre, de pierre à chaux et à meules, du charbon, du fer et du manganèse ; ces articles font la principale partie du commerce de cette province.

Population.—La population du Nouveau-Brunswick, suivant le recensement de 1871, est de 285,777 habitants.

QUESTIONNAIRE.

Quelles sont les bornes du Nouveau-Brunswick ?

Quelles sont ses principales baies ? ses fleuves ou rivières ?

Quelle est la division politique de cette province ?

Quelles sont les villes de cette province ?

Donnez quelques notions sur le climat ; sur la qualité du sol ; sur les productions du pays.

Quelle est la population ?

PROVINCE DE LA NOUVELLE-ÉCOSSE.

La Nouvelle-Écosse est bornée au nord, par le détroit de Northumberland ; au nord-ouest, par le détroit de Canso ; à l'est et au sud, par l'océan ; à l'ouest, par la baie de Fundy ; au nord-ouest, par le Nouveau-Brunswick.

Lacs, Baies.—Le lac *Rossignol*, et le *Bras-d'Or*, dans l'île du cap Breton. La baie principale est la baie d'*Annapolis*.

Le seul canal est celui de *Shubenacadie* qui fait communiquer la baie d'Halifax avec celle de Minas, ou l'Atlantique avec la baie de Fundy.

La Nouvelle-Écosse comprend cinq arrondissements, qui se divisent en 18 comtés ; ceux-ci se subdivisent en districts et townships. Elle envoie 21 membres au Parlement Fédéral, et 38 au Parlement Provincial.

Historique.—La Nouvelle-Écosse, autrefois connue sous le nom de l'Acadie, a été découverte en 1497 par Sébastien Cabot, vénitien au service de l'Angleterre, et occupée par les Français en 1604 jusqu'à ce qu'ils en aient été chassés par les Anglais en 1758.

Villes.—La capitale de la Nouvelle-Écosse est *Halifax*. Cette ville, fondée en 1750, est située sur la baie de Chebouctou. Son port est un des plus beaux et des plus vastes de l'Amérique. C'est aussi le terminus du chemin de fer l'Intercolonial.

Description générale.—Le climat est à peu près celui du Nouveau-Brunswick. On y trouve les célèbres mines de charbon, de fer, le plâtre, la pierre à chaux et à meules et l'ardoise, ainsi que des minerais de cuivre et de plomb.

Le commerce consiste en poisson, peaux de loups-marins, huile, bois de construction, plâtre, charbon, chaux, bœufs et lard salés, beurre, fromage, orge et avoine.

Population.—La population, d'après le recensement de 1871, est de 388,000 habitants d'origine britannique et française.

Le *Cap Breton* dépend de la province de la Nouvelle-Écosse. Ville principale *Sydney*.

QUESTIONNAIRE.

Quelles sont les bornes de la Nouvelle-Écosse ?

Dites quelle est sa baie principale ; quels sont ses lacs.

Quelle est l'utilité du canal Shubenacadie ?

Quelles sont les divisions de cette province ?

Donnez quelques notions historiques sur cette contrée.

Faites connaître son climat ; ses productions ; son commerce.

Donnez quelques notions sur la capitale de la Nouvelle-Écosse ; sur sa population.

Quelle est la position politique du Cap-Breton ? sa principale ville ?

MANITOBA.

Cette province n'est qu'une faible partie des territoires du Nord-Ouest, qui la bornent de toutes parts, excepté du côté du sud, où elle touche aux États-Unis. Elle est comprise entre les 49° et 50° de latitude, et les 96° et 99° de longitude. Elle renferme la ci-devant colonie de la rivière Rouge, et celle du Portage. Le climat et le sol sont propres à la culture.

Manitoba se divise en quatre districts électoraux, dont voici les noms : *Lisgar*, *Selkirk*, *Provencher* et *Marquette*.

Villes. — La capitale est *Fort-Garry*, avantageusement située au confluent de la rivière Assiniboine et de la rivière Rouge : c'est une station importante sur la route du Canada à la Colombie Anglaise. Vis-à-vis Fort-Garry est *Saint-Boniface*, siége d'un archevêché.

Gouvernement.—Le gouvernement est constitutionnel ; il se compose d'un Lieutenant-Gouverneur, d'un Conseil législatif actuellement de 7 membres, et d'une Chambre d'Assemblée de 24 membres.

Manitoba est représentée au Parlement Fédéral par 2 sénateurs, et par 4 membres des Communes.

Population.—Manitoba a une population de 15,000 âmes sur une superficie de 14,340 milles carrés.

QUESTIONNAIRE.

Faites connaître les bornes et l'étendue de cette province; le climat.

Comment se divise cette province?

Quelle est la capitale? le gouvernement? la population? la superficie?

COLOMBIE ANGLAISE.

La Colombie Anglaise est bornée au nord, par le 60° de latitude; à l'est, par le 120° de longitude et les Montagnes Rocheuses; au sud par le 49° de latitude qui la sépare des États-Unis; à l'ouest, par le Grand Océan, le détroit de la Reine Charlotte et l'océan Pacifique.

Cette province est comprise entre les 49° et 60° de latitude nord. Sa superficie est de 357,250 milles carrés, y comprise l'île de Vancouver, qui lui appartient. Le climat est tempéré et la terre fertile.

Montagnes et cours d'eau.—Les principales montagnes sont les montagnes *Rocheuses* et celles des *Cascades*. On y voit des pins de 300 pieds de haut.

Les principaux cours d'eau sont: le *Fraser*, la *Colombia*, ou *Orégon*, le *Simpson*, etc.

Villes.—*New-Westminster*, sur le Fraser; *Victoria*, dans l'île de Vancouver, est la principale ville de cette île et la capitale de la Province.

Gouvernement constitutionnel. Population, environ 35,000 habitants.

QUESTIONNAIRE.

Quelles sont les bornes de la Colombie anglaise? son étendue? sa superficie? son climat?

Nommez les principales montagnes; les principaux fleuves.

Quelles sont les principales villes?

Quel est le gouvernement? la population?

ILE DU PRINCE ÉDOUARD.

Cette province est située dans le Golfe St. Laurent, près de la Nouvelle-Écosse, dont elle est séparée par le détroit de *Northumberland*.

Elle est divisée en 3 grands comtés. Son climat est égal et son sol est fertile quoique l'hiver y soit long et froid.

La capitale *Charlottetown* est située sur le détroit.
Gouvernement constitutionnel. Population, environ 94,021 habitants.

QUESTIONNAIRE.

Où se trouve l'Ile du Prince Édouard?

Quel est le détroit qui la sépare de la Nouvelle-Écosse?

Quelles sont ses divisions? son climat?

Quelle est sa capitale? son gouvernement? sa population?

TERRITOIRES DU NORD-OUEST.

Ces vastes contrées sont bornées, au nord, par l'océan Glacial; à l'est, par l'Atlantique; au sud-est et au sud, par les provinces de Québec et d'Ontario, et les États-Unis; à l'ouest, par la Colombie anglaise, et le territoire d'Alaska ou ancienne Amérique Russe.

On peut diviser le Nord-Ouest en deux grandes régions naturelles; 1o. le bassin de la mer Glaciale; 2o. le bassin de la baie d'Hudson, ou Terre de Rupert, qui comprend le Maine Oriental, la Nouvelle Galles du Sud, et la vallée de la Siskatchewan.

Rivières et lacs.—Les fleuves et rivières les plus considérables sont: le *Mackenzie*, qui se jette dans la mer Glaciale; la *Siskatchewan* et la rivière *Rouge*, qui se déchargent dans le lac Winnipeg; l'*Assiniboine*, affluent de la rivière Rouge; le *Nelson*, les rivières *Churchill*, *Severn*, *Albany*, *Moses*, *Rupert*, etc., qui se jettent dans la baie d'Hudson.

Les lacs sont en grand nombre, et plusieurs mériraient le nom de mers intérieures. Les principaux sont ceux de *Winnipeg*, de *Winnipegous*, ou *Petit-Winnipeg*, d'*Artabaska*, des *Esclaves*, du *Grand-Ours*, d'*Abitibbi*, etc.

DESCRIPTION GÉNÉRALE.—La plus grande partie du Nord-Ouest se compose de plaines stériles, glacées, humides et marécageuses. La température, assez douce au centre et au midi, est particulièrement favorable à la culture dans la grande et fertile vallée de la Siskatchewan.

Le commerce consiste surtout en pelleteries. Parmi les peuplades sauvages, les *Esquimaux* sont les plus remarquables.

La Compagnie de la baie d'Hudson a élevé dans ces territoires environ 200 forts, postes ou factoreries, qui sont les entrepôts de son commerce de fourrures. Le chef-lieu du gouvernement est le fort *York*. Le pays est placé sous l'administration d'un Lieutenant-Gouverneur, nommé par commission sous le grand sceau du Canada. Population, environ 80,000 habitants.

DISTRICT DE KÉWATIN.—C'est une portion des Territoires du Nord-Ouest; sous la juridiction du Lieut.-Gouverneur du Manitoba.

QUESTIONNAIRE.

Quelles sont les bornes du Territoire du Nord-Ouest?

Comment peut-on diviser le Nord-Ouest?

Quels sont les fleuves et les rivières les plus considérables? les lacs?

Quel est l'aspect général du Nord-Ouest?

Parlez-nous des forts ou postes, qu'y a élevés la Compagnie de la baie d'Hudson.

Quel est le gouvernement du pays? La population?

TERRENEUVE.

Cette île est située à l'entrée du golfe Saint-Laurent. Elle a une superficie de 50,200 milles carrés.

Baies.—On remarque celle du *Lièvre*, *Blanche*, *Notre-Dame*, *Bonavista*, *Trinité*, terminus du câble transatlantique, la *Conception*, *Saint George*, etc.

Lacs.—Les principaux sont: le *Deer*, le *Grand Pond*, *George IV*, *Victoria* et l'*Indien-Rouge*.

Description générale.—L'île de Terreneuve est élevée, couverte de forêts et brumeuse, le sol est peu fertile mais riche en minéraux. Son commerce comprend surtout les pelleteries, le charbon, le poisson et l'huile. Les brouillards épais qui y règnent en mai et juin, les rochers et bancs de sable qui environnent, rendent l'entrée de ses ports dangereuse.

Villes.—La capitale est *Saint-Jean*, elle renferme un bon port, et possède un évêché catholique. Les autres villes sont *Harbor, Grâce, Bonavista, Brigus, Trinity, Catalina, etc.*

Gouvernement.—Il est constitutionnel. Cette île fera, selon toutes probabilités, bientôt partie de la confédération canadienne.

Population.—La population en grande partie composée d'Irlandais catholiques est de 146,000 habitants.

TERRITOIRE D'ALASKA.

Le territoire d'Alaska, autrefois l'*Amérique-Russe*, est borné au nord, par la mer Glaciale; au sud, par le parallèle de 50° 40, N.; à l'ouest, par l'Océan Pacifique et le détroit de Béhring; à l'est, par le territoire du Nord-Ouest et la colonie de Stickeen. Il comprend aussi les *îles Aléoutiennes* et plusieurs Archipels situés le long des côtes du Nord-ouest.

Description générale.—Ce pays est presque entièrement couvert de neiges, il s'y est fait de terribles avalanches. On y trouve en abondance le gibier et le poisson, on y fait aussi le commerce de fourrures. Les peuplades qui habitent cette région sont divisées en tribus qui se font continuellement la guerre, ils vivent de pêche, de chasse et de la dépouille de leurs ennemis. Ce territoire a été acquis aux États-Unis par un achat.

Le chef-lieu est le *Nouvel-Arkangel*, petit fort situé sur la côte occidentale dans l'île et sur le détroit de *Sitka*.

Population.—La population totale du territoire d'Alaska, peut se diviser ainsi : 54,000 indigènes; 10,000 colons; 1,000 créoles; 400 russes; les trois quarts sont fétichistes, le reste est composé de chrétiens grecs.

GROËNLAND OU AMÉRIQUE DANOISE.

A l'est de la baie de Baffin est situé le *Groënland*, habité par les *Esquimaux*. Les Danois et les Norvégiens y ont formé des établissements de commerce. La population est d'environ 21,000 âmes.

L'ISLANDE est une grande île située vers la zone glaciale, à 140 milles à l'est du Groënland.

ÉTATS-UNIS.

Les États-Unis sont bornés au nord, par les possessions Anglaises ; à l'est, par l'océan Atlantique ; au sud, par le golfe du Mexique et le Mexique ; à l'ouest, par l'océan Pacifique.

Montagnes.—Les montagnes sont les monts *Apalaches* ou *Alléganys* à l'est, et les montagnes *Rocheuses* et les *Cascades* à l'ouest.

Lacs et baies.—Les lacs sont les quatre grands lacs du Canada, dont nous avons parlé plus haut, et le lac *Michigan*.

Les baies sont celles de *Passamoquoddy*, *Penobscot*, de *Massachusetts*, de *New-York*, de *Delaware*, de *Chesapeake* et de *Mobile*.

Golfes et rivières.—Les golfes sont ceux de *Long-Island*, d'*Albemarle* et de *Pamlico*.

Les principales rivières sont le *Mississippi*, l'*Illinois*, le *Missouri*, l'*Arkansas*, la rivière *Rouge*, le *Wabash*, le *Connecticut*, l'*Hudson*, le *Delaware*, le *Susquehannah*, le *Potomac*, et la rivière *Columbia*.

Lors de leur séparation de la Grande-Bretagne, les États-Unis n'étaient qu'au nombre de 13 ; aujourd'hui on compte 37 États, 11 Territoires et un District Fédéral. On peut les diviser en États de l'Est, du Milieu, du Sud et de l'Ouest.

ÉTATS DE L'EST.

ÉTATS.	CAPITALES.
Maine	Augusta.
New-Hampshire	Concord.
Vermont	Montpellier.
Massachusetts	Boston.
Rhode-Island	Providence et New-port.
Connecticut	Hartford.

ÉTATS DU MILIEU.

ÉTATS.	CAPITALES.
New-York	Albany.
New-Jersey	Trenton.
Pensylvanie	Harrisburg.
Delaware	Dover.

ÉTATS DU SUD.

ÉTATS.	CAPITALES.
Maryland	Annapolis.
Virginie	Richmond
Virginie occidentale	Wheeling.
Caroline du Nord	Raleigh.
Caroline du Sud	Columbia.
Géorgie	Atlanta.
Alabama	Montgomery.
Mississippi	Jackson.
Louisiane	Nouvelle-Orléans.
La Floride	Tallahassee.
Texas	Austin.
Le District de Columbia	Washington.

ÉTATS DE L'OUEST.

ÉTATS.	CAPITALES.
Arkansas	Little Rock.
Ohio	Columbus.
Kentucky	Franckfort.
Tennessee	Nashville.
Indiana	Indianapolis.

Illinois	Springfield.
Michigan	Lansing.
Missouri	Jefferson City.
Iowa	Des Moines.
Wisconsin	Madison.
Minnesota	Saint-Paul.
Nebraska	Lincoln.
Kansas	Topeka.
Orégon	Salem.
Nevada	Carson City.
Californie	Sacramento City.
Colorado	Denver.
Nouveau-Mexique	Santa-Fé.

TERRITOIRES.

NOMS.	CAPITALES.
Alaska	Sitka.
Washington	Olympia.
Idaho	Boisée City.
Montana	Helena.
Dakota	Yankton.
Wyoming	Cheyenne.
Utah	Cité du Lac Salé.
Arizona	Tueson.
Territoire indien	Tablequah.

Historique.—Les Anglais ont fondé dans cette partie de l'Amérique, en 1607, leurs premiers établissements, et s'y sont maintenus jusqu'en 1774, époque à laquelle les habitants se révoltèrent contre la Grande-Bretagne et établirent leur indépendance.

En 1861, la Caroline du Sud, la Géorgie, la Floride, l'Alabama, le Mississippi, la Louisiane et le Texas ont voulu se séparer de la Confédération. De là, la guerre civile qui a existé entre la confédération et les états qui s'étaient séparés. La victoire est restée aux États du Nord.

Description générale.—Il n'y a point de pays au monde où il existe une aussi grande variété de sectes religieuses: les plus nombreuses sont les Baptistes, les Méthodistes, les Presbytériens. Les Catholiques Romains forment environ un septième de la population.

Le climat est assez froid dans les états du Nord, tempéré dans les états du Milieu et de l'Ouest, et chaud dans les états du Sud.

Les productions des États-Unis sont le froment, le blé-d'inde et autres grains, le riz, le coton, la canne à sucre, le tabac et une grande variété de fruits.

Les pâturages font la richesse des états du Nord; le blé, celle des états du Milieu et de l'Ouest; le tabac et le blé, celle du Maryland et de la Virginie et enfin le coton, celle des états situés au sud de la Virginie et du Kentucky.

On trouve des mines d'or dans la Californie, le Navada et le Colorado, et de cuivre, près du lac Supérieur; de plomb, dans l'état de Missouri; de charbon dans la Pensylvanie; de fer, dans presque tous les états. Le marbre et l'ardoise abondent dans la Pensylvanie, dans les états de Vermont et de New-York.

Le commerce des États-Unis est presque aussi étendu que celui de l'Angleterre. Des manufactures s'y trouvent dans tous les États.

Villes.—Les villes principales des États-Unis sont *Washington*, capitale des États-Unis; *New-York*, la plus peuplée des États, et la plus commerçante du monde après Londres; *Philadelphie, Baltimore, Boston*, la *Nouvelle Orléans, Charlestown, Cincinnati, Albany, Buffalo, Saint Louis, Chicago, Détroit* et *San Francisco*.

Gouvernement.—Le gouvernement est une république fédérative. Chaque état a son gouvernement indépendant des autres et se donne des lois. Le gouvernement fédéral ou le *Congrès*, est chargé des intérêts généraux de tous les États. Il est composé d'un Président, d'un Vice-Président, d'un Sénat et d'un corps de représentants, tous élus par le peuple ou par ses députés. Le Président et le Vice-Président sont élus tous les quatre ans, les Sénateurs pour six ans, et les représentants tous les deux ans.

Le gouvernement de chaque état particulier se compose d'un Gouverneur, d'un Sénat et d'une Chambre de représentants. Rhode-Island et Vermont n'ont pas de Sénat.

Population.—La population des États-Unis, y compris celle des Territoires, est d'environ 38,600,000 habitants, sur une superficie de 3,300,000 milles carrés.

QUESTIONNAIRE.

Donnez quelques notions sur le Groënland.

Quelles sont les bornes des États-Unis ?

Quelles sont les montagnes ? les lacs ? les golfes ? les baies ? les principales rivières ?

Quelles sont les divisions politiques des États-Unis ? Indiquez-nous quels sont les États et les Territoires dont ils se composent, avec les noms de leurs capitales.

Quel est le district fédéral et la capitale des États-Unis ?

Donnez quelques notions historiques sur ce pays.

Parlez-nous du climat ; des productions ; du commerce.

Énumérez les principales villes.

Parlez-nous du gouvernement.

Quelle est la population ? la superficie ?

MEXIQUE.

Le Mexique est borné au nord et au nord-est, par les États-Unis, dont il est séparé par le Rio-grande-del-Norte : à l'est, par le golfe du Mexique ; au sud-est, par le Guatimala ; au sud et à l'ouest, par l'Océan Pacifique.

Montagnes.—Les principales montagnes du Mexique sont les *Cordillières*, dont la plus remarquable est le *Popocatepelt*, ou *montagne fumante*.

Cours d'Eau.—Les lacs sont le lac *Chapala*, *Tezcuco*, près de Mexico, et le lac *Tamiagua* sur le golfe du Mexique.

Les rivières sont le *Rio-del-Norte*, le *Colorado* et le *Rio-Grande-de-Santiago*.

Historique.—Le Mexique a été découvert, en 1521, par une troupe d'aventuriers espagnols, sous la conduite de Fernand Cortez, qui s'y souillèrent d'excès et de crimes de tout genre. Les descendants des espagnols ont, depuis un demi-siècle, secoué le joug du roi d'Espagne, et se sont formés en République fédérale.

Description générale.—Le climat y est d'une chaleur excessive ; on y cultive la canne à sucre, le coton, l'indigo, les cocos, les bananes, le maïs et le manioc aussi appelé

cassave. Le sol y produit abondamment les grains et les fruits. Il arrive souvent qu'on y fait la récolte du maïs deux ou trois fois par année.

Le Mexique contient des mines d'or et d'argent, de cuivre, de plomb, d'étain et de fer.

Le commerce du Mexique consiste en or et en argent, cochenille, sucre, farine, salsepareille, indigo, vanille, jalap, bois de campêche et d'acajou.

Villes. —*Mexico* est la capitale du Mexique ; cette ville est élevée de 7,400 pieds au-dessus du niveau de la mer.

Les autres villes principales, après Mexico, sont *Guadalaxara, Puebla, Guanaxuato, Querétaro Oaxaca, Vera-Cruz* et *Acapulco.*

Gouvernement.—La république Mexicaine est une république fédérative, divisée en 20 états.

Population.—La population du Mexique est d'environ 8 millions d'habitants, blancs et indiens, presque tous catholiques romains.

QUESTIONNAIRE.

Quelles sont les bornes du Mexique ?

Indiquez-nous les principales montagnes ; les cours d'eau.

Donnez quelques notions historiques sur ce pays.

Parlez-nous du climat ; des mines ; du commerce.

Parlez-nous de la capitale ; des autres villes principales.

Quels sont ses divisions politiques ? son gouvernement ?

Quelle est la population ?

AMÉRIQUE CENTRALE.

L'Amérique Centrale est bornée au nord, par le Mexique ; au nord-est et à l'est, par la mer des Antilles ; au sud-est, par la Nouvelle-Grenade ; au sud et à l'ouest, par le Grand Océan.

L'Amérique Centrale se divise en cinq républiques indépendantes, dont voici les noms : Guatimala, Honduras, San Salvador, Nicaragua et Costa Rica.

Montagnes et lacs.—Les montagnes sont les mêmes que celles du Mexique. Les lacs sont celui de *Nicaragua*, au milieu duquel est un volcan toujours enflammé, et le lac *Léon*.

Description générale. — Le climat est un des plus beaux du monde. Le pays est fertile et très-sujet à de grands tremblements de terre. Les articles du commerce sont les mêmes que ceux du Mexique. Ce pays possède des mines très-riches.

La baie de Honduras est célèbre par le commerce que les Anglais y font des bois de teinture et de l'acajou. Ils ont fondé une colonie dans cette baie.

Villes.—Les principales villes de l'Amérique Centrale sont: *Guatimala*, capitale de la république de ce nom; *Comayagua* capitale de Honduras; *San Salvador*, capitale de la république de ce nom; *Managua*, capitale de Nicaragua; *San José*, capitale de Costa Rica.

Population.—La population est d'environ 2,500,000 habitants, blancs, indiens et métis, tous catholiques.

QUESTIONNAIRE.

Quelles sont les bornes de l'Amérique Centrale?

Combien de républiques indépendantes comprend l'Amérique Centrale?

Parlez-nous des montagnes; des lacs; du climat; du commerce de ce pays; des baies.

Quelles sont les principales villes de l'Amérique Centrale?

Quelle en est la population?

ILES DU GOLFE DU MEXIQUE.

Ces îles, nommées *Antilles* ou *Indes Occidentales*, se divisent en quatre classes, savoir :

1o. Les îles *Lucayes* ou de *Bahamas*, au nombre d'environ 500. Les plus remarquables sont *San-Salvador* et *New-Providence*, dont la capitale est *Nassau*.

2o. Les *Grandes Antilles*, qui sont: *Cuba*, qui a pour capitale la *Havane*; *Haïti* ou *Saint-Domingue*, de 3,300 lieues en superficie, et dont la capitale est *Port-au-Prince*, aujourd'hui appelé *Port Républicain*. Cette île appartenait autrefois partie à la France et partie à l'Espagne;

mais, pendant la première révolution française, les nègres esclaves se révoltèrent et se constituèrent en république. La partie espagnole forme un état séparé, sous le nom de République Dominicaine, dont la capitale est *San-Domingo*. La population est de 800,000 âmes. Cette île produit le plus beau bois d'acajou.

La *Jamaïque*, qui est traversée par des montagnes qu'on appelle *Montagnes Bleues*. La capitale est *Spanishtown*. Cette île, dont la population est de 400 mille habitants, appartient à l'Angleterre.

Porto-Rico, dont la capitale est *San Juan de Porto-Rico*.

3o. Les îles *Caraïbes*, qui se divisent en *Iles-sous-le-Vent*, au nord, et en *Iles-du-Vent*, au sud.

Les *Iles-sous-le-Vent* sont *Saint-Martin*, *Saint-Eustache*, *Saint-Barthélemi*, et un grand nombre d'autres moins importantes.....*Antigue*, la *Guadeloupe*, la *Désirade* et *Marie Galante*, etc.

Les *Iles-du-Vent* sont la *Martinique*, *Sainte-Lucie*, *Saint-Vincent*, la *Barbade*, *Grenade*, et *Tobago*.

4o. Les *Petites Antilles*, sont *Trinidad*, *Sainte-Marguerite*, et *Curaçoa*.

Les Espagnols possèdent les îles de Cuba et de Porto-Rico; les Français, celles de la Guadeloupe, la Désirade, Marie Galante et la Martinique; les Hollandais, Saint-Eustache et Curaçoa; les Anglais, la Jamaïque et la plupart des autres îles importantes, qui, presque toutes, ont des gouvernements représentatifs.

ILES BERMUDES.

Les îles *Bermudes*, au nombre d'environ 400, sont situées dans l'Océan Atlantique, par les 32 degrés 20 minutes nord de latitude, et 67 degrés de longitude ouest; la principale est *Saint-George*. Ces îles sont le lieu de station de la marine anglaise, pour l'Amérique Septentrionale. Elles jouissent d'un gouvernement constitutionnel composé des Conseils Exécutif, Législatif et d'une Chambre d'Assemblée.—Population, environ 12,000 habitants. Capitale, *Hamilton*, ville maritime de Long-Island.

QUESTIONNAIRE.

Quel nom donne-t-on aux îles du golfe du Mexique, et en combien de classes se divisent-elles ?

Faites-nous connaître les Iles Lucayes; les Grandes Antilles; les îles Caraïbes, les petites Antilles; les îles Bermudes.

Quelles sont les possessions des puissances européennes dans le golfe du Mexique ?

AMÉRIQUE MÉRIDIONALE.

L'Amérique Méridionale est bornée au nord, par l'isthme de Panama et la mer des Antilles; au nord-est et l'est, par l'océan Atlantique; au sud, par le détroit de Magellan; à l'ouest, par l'océan Pacifique.

Montagnes.—Les principales montagnes sont : à l'ouest, les *Andes* ou *Cordillières*, et à l'est, les *Monts Brésiliens*. Ces montagnes sont remplies de volcans pour la plupart éteints.

Baies, golfes, détroits.—Les baies principales sont celles de *Tous-les-Saints*, de l'*Assomption*, de *Saint-Mathias*, de *Saint George* et de *Panama*.

Les golfes sont ceux de *Darien*, de *Maracaïbo*, de *Paria* et de *Guyaquil*.

Les détroits sont ceux de *Magellan* et de *Lemaire*.

Lacs, fleuves et îles.—Les principaux lacs sont ceux de *Maracaïbo*, dans la Colombie, de *Los-Patos*, sur la côte du Brésil; de *Titicaca*, dans la Bolivie.

Les fleuves et rivières les plus remarquables sont le fleuve des *Amazones* ou *Maranon*, le plus grand de la terre, dont l'embouchure a 60 lieues de large; le *Rio de la Plata*, et l'*Orénoque*.

Les îles sont celles de *Marajo*, dans le fleuve des Amazones; les *Malouines* ou *Falkland*, la *terre de Feu*, *San Juan Fernandez* et l'archipel de *Gallapagos*.

Description générale.—Le climat de l'Amérique Méridionale, en général, est fort chaud, mais tempéré par les fleuves, les rivières et les forêts dont elle est couverte.

L'Amérique Méridionale produit les plantes et fruits du Mexique, des Antilles et de l'Europe. Elle est riche en mines d'or, d'argent, de cuivre, en diamants, en pierres précieuses. On y trouve des lions, des tigres, des léopards, des singes, des autruches, des crocodiles et d'énormes serpents.

La population peut être estimée à environ 25 millions d'habitants, à certaines exceptions près, tous sous le gouvernement républicain, dont les bases sont chancelantes au milieu des révolutions et des guerres civiles qui agitent cette partie du monde, depuis un grand nombre d'années.

DIVISION DE L'AMÉRIQUE MÉRIDIONALE.

L'Amérique Méridionale se divise comme suit : au nord, les États-Unis de la Colombie ou Nouvelle-Grenade, partagée en trois républiques indépendantes ; à l'est, la Guyane et le Brésil ; à l'ouest, le Pérou et la Bolivie ; au sud, la république Argentine, l'Uruguay, le Paraguay, le Chili et la Patagonie.

QUESTIONNAIRE.

Quelles sont les bornes de l'Amérique Méridionale ?

Quelles sont les principales montagnes ? les baies ? les golfes ? les détroits ? les principaux lacs ? les fleuves ? les îles ? le climat ? les productions ? la population ?

Comment se divise l'Amérique Méridionale ?

COLOMBIE.

ÉTATS-UNIS DE LA COLOMBIE OU NOUVELLE-GRENADE.

La *Colombie* est bornée au nord, par la mer des Antilles ; à l'est, par la Guyane ; au sud, par le Brésil et le Pérou ; à l'ouest, par le Grand océan.

Depuis 1831, la Colombie est divisée en trois républiques indépendantes ; celle de la Nouvelle-Grenade ou des États-Unis de la Colombie, qui a pour capitale *Santa-Fé de Bogota* ; celle de Vénézuela, qui a pour capitale *Caraccas*, et enfin celle de l'Équateur, dont la capitale est *Quito* (*a*) située à la hauteur de 9,500 pieds. Les principales villes sont *Cathagènes*, *Porto-Bello*, *Panama* et *Maracaïbo*.

(*a*) Près de Quito se trouve le Pic de Chimboraço, la plus haute montagne de l'Amérique, haut de 21,500 pieds.

Le Colombie renferme des mines d'or et d'argent, de cuivre, de pierres précieuses. Son commerce consiste en indigo, tabac, café et animaux vivants.

Le climat de la Colombie varie à l'infini ; froid près des montagnes, brûlant et pestilentiel sur les bords de la mer. Ce pays est souvent exposé aux tremblements de terre. Population, environ 6,500,000 habitants.

QUESTIONNAIRE.

Quelles sont les bornes de la Colombie ?

En combien de républiques indépendantes se divise la Colombie ? donnez les noms de ces républiques avec celui de leurs capitales.

Parlez-nous des productions ; du commerce ; du climat de la Colombie.

Quelle est la population ?

GUYANE.

La *Guyane*, située sur l'océan Atlantique, se divise en trois parties, savoir : 1o la Guyane *Anglaise*, dont la capitale est *Georgetown*, sur la rivière Démerara ; population, 191,000 habitants ; 2o la Guyane *Hollandaise* ou *Surinam*, dont la capitale est *Paramaribo*, sur la rivière Surinam ; population, 70 mille habitants ; 3o la Guyane *Française*, qui a pour capitale *Cayenne*, dans l'île de ce nom ; population, environ 26 mille habitants.

La Guyane produit en abondance le sucre, le café, l'indigo, le cacao, le coton, le poivre rouge, l'aloës, les oranges, les citrons, les figues, etc.

QUESTIONNAIRE.

Où se trouve située la Guyane, et en combien de parties se divise-t-elle ?

Quelles sont les productions de ce pays ?

BRÉSIL.

Le *Brésil* est borné au nord, par la Nouvelle-Grenade, le Vénézuela, la Guyane et l'océan Atlantique ; à l'est, par le même océan ; au sud et à l'ouest, par la république Argentine, le Paraguay, la Bolivie, le Pérou et l'Équateur.

Rivières.—Les rivières sont le fleuve des *Amazones*, le *Parnaïbo*, le *Parana*, le *San Francisco* et le *Paraguay*.

Description générale. — Ce pays qui appartenait au Portugal, s'en est séparé en 1822. Il forme un royaume indépendant. Le gouvernement est monarchique constitutionnel et le prince souverain porte le nom d'empereur du Brésil. C'est le seul royaume qui existe dans toute l'Amérique.

Le climat varie suivant la latitude ; au sud, il est doux ; au nord, on éprouve de grandes chaleurs, tempérées par les forêts et les montagnes dont le Brésil est couvert.

Le sol est fertile, et produit le coton, le sucre, l'ipécacuanha et autres plantes médicinales, le blé, les grains et beaucoup de fruits. Les forêts sont remplies de troupeaux innombrables de bœufs sauvages. C'est du Brésil que l'on tire les bois de *teinture* connus sous le nom de *bois du Brésil*.

Le Brésil renferme des mines d'or et d'argent, de fer, d'étain et de plomb. On y trouve des diamants en abondance.

Le commerce consiste dans les productions dont nous venons de parler.

Villes.—La capitale du Brésil est *Rio-Janeiro* ou *Saint-Sébastien*. Les villes principales sont *Bahia, Pernambouc, Para, Rio-Grande, Villa-Rica* et *Cuyaba*.

Population.—La population est d'environ 10,500,000 d'habitants.

QUESTIONNAIRE.

Quelles sont les bornes du Brésil ?

Donnez quelques notions historiques sur ce pays.

Quels sont les fleuves ou rivières ? le climat ? la qualité du sol et les productions ? le commerce ?

Quelle est la capitale avec les principales villes de ce pays ? Quelle en est la population ?

PÉROU.

Le Pérou est borné au nord, par la république de l'Équateur ; à l'est, par le Brésil ; au sud, par la Bolivie ; à l'ouest, par le Grand Océan.

Il est divisé en 15 départements et 3 provinces littorales.

Historique.—Ce pays, avant sa découverte en 1531, était habité par un peuple civilisé et policé, gouverné par des rois appelé *Incas*, qui se prétendaient *les fils du Soleil*. L'avarice insatiable des Espagnols sous la conduite de l'infâme *Pizarre*, détruisit cet empire puissant, et fit nager dans le sang les infortunés habitants de ce pays, un des plus beaux et des plus riches de la terre. Ce pays a secoué le joug du gouvernement espagnol en 1821, et s'est constitué en république.

Description générale.—Le Pérou, dont le sol et les productions sont à peu près semblables à celles de la Colombie, est exposé aux tremblements de terre.

Parmi les oiseaux du Pérou on remarque le Condor, qui a trois à quatre pieds de haut, et dont les ailes ont quatorze pieds d'envergure. Il enlève, dit-on, les veaux et les brebis.

Le Pérou renferme les mines d'or et d'argent les plus célèbres que l'on connaisse; des mines de mercure, de cuivre, de plomb, et des émeraudes. Le commerce consiste en or, argent, vin, eau-de-vie, sucre, piment, quinquina, guano, sel et laines.

Villes.—La capitale du Pérou est *Lima*. Les autres villes sont *Cuzco*, *Callao*, port de mer, et *Truxillo*, *Aréquipa*. Cette dernière ville et plusieurs autres ont été englouties par le tremblement de terre de 1868.

Population.—La population est d'environ 3,000,000 d'habitants catholiques.

QUESTIONNAIRE.

Quelles sont les bornes du Pérou? ses divisions?

Donnez quelques notions historiques sur ce pays.

Quel en est le commerce? le gouvernement?

Nommez la capitale du Pérou, avec les principales villes.

Donnez quelques notions sur le sol et les productions de ce pays; sur les animaux remarquables qu'on y trouve; sur les mines qu'il renferme.

Quelle est sa population?

BOLIVIE.

La Bolivie ou *Haut-Pérou*, est bornée au nord et à l'est, par le Brésil; au sud, par la république Argentine et le Chili; à l'ouest, par le Grand Océan et le Pérou.

Les productions, le climat et le commerce de ce pays sont les mêmes que ceux du Pérou.

La capitale est *La Plata* ou *Chuquisaca*. Les villes principales sont *Lapaz* et *Potosi*.

Population.—La population est d'environ deux millions d'habitants. Le gouvernement est républicain.

QUESTIONNAIRE.

Donnez les bornes de la Bolivie.

Quelles sont les productions? le climat? le commerce? la capitale avec les principales villes? la population? le gouvernement?

RÉPUBLIQUE ARGENTINE.

La république Argentine est bornée au nord, par la Bolivie; à l'est, par le Paraguay, l'Uruguay et l'océan Atlantique; au sud, par la Patagonie; à l'ouest, par le Chili.

La république Argentine est une confédération composée de 14 provinces.

Rivières.—Les rivières sont le *Paraguay* et le *Parana*, qui se réunissent pour former le *Rio* de la *Plata*; le *Colorado* et le *Rio Negro*.

Description générale.—Le climat y est fort chaud près de la mer, tempéré et agréable près des montagnes. Les productions sont les mêmes que celles du Brésil et du Pérou.

Les articles de commerce sont les peaux, le suif et la viande de bœuf, les laines, les chevaux et les mulets.

Villes.—La capitale est *Buenos-Ayres*. Les autres villes principales sont *Santa-Fé*, *Mendoza* et *Corrientes*.

Population.—Environ 1,800,000 habitants.

QUESTIONNAIRE.

Quelles sont les bornes de cette province?

En combien de provinces se divise la république Argentine?

Dites-nous quelles sont les principales rivières; le climat; les productions; les articles de commerce; les animaux qu'on y trouve.

Nommez la capitale avec les principales villes.

Quelle est la population?

PARAGUAY

Ce pays, situé entre le Brésil, la république Argentine et la Bolivie, a 440 milles de long, et 180 de large.

Le Paraguay est très-riche en grains, en coton, en sucre, en tabac et en fruits. La capitale est l'*Assomption*, sur la rivière Paraguay.

Population.—Environ 1,200,000 habitants.—Le gouvernement est républicain.

QUESTIONNAIRE.

Donnez la situation et les divisions de ce pays.

Quelles sont les productions ?

Quelle est la population ? le gouvernement ?

Quelle est la capitale ?

URUGUAY OU RÉPUBLIQUE CISPLATINE.

La république de l'Uruguay est comprise entre le Brésil et le Rio de la Plata, la rivière Uruguay et l'Atlantique. C'est le plus petit état de l'Amérique du Sud ; il a 250 milles de long, et à peu près autant de large.

Il a pour capitale *Montevideo*. Sur la partie supérieure de la rivière Uruguay, se trouvaient les établissements connus sous le nom de *réductions*, formées par les Jésuites pour la conversion et la civilisation des sauvages. Lors de la suppression des Jésuites, ces établissements comptaient plus de 100,000 âmes Les productions de l'Uruguay sont les mêmes que celles des pays qui l'avoisinent.

Population.—Environ 470,000 habitants.

QUESTIONNAIRE.

Quelles sont les limites entre lesquelles est comprise la république de l'Uruguay ?

Quelle est la capitale ? Donnez quelques notions géographiques et historiques sur les anciennes réductions des Jésuites.

Quelles sont les productions ? Donnez le chiffre de la population.

CHILI.

Ce pays est borné au nord, par le désert d'Atacama ; à l'est, par la république Argentine ; au sud, par la Patagonie, et à l'ouest, par le Pacifique.

Le climat est tempéré et salubre. On y trouve des mines d'or, d'argent, de mercure, de cuivre, d'étain, de plomb, de sel, d'antimoine et de charbon. La partie du sud produit le blé, le maïs, le sucre, le coton, le vin et les figues.

Le commerce consiste en or, argent, cuivre, étain, blé, farine, chanvre, peaux, viandes et fruits.

La capitale est *Santiago* ; et les principales villes sont : *Valparaiso* et la *Conception.*

Population.—Population, environ 1,700,000 habitants.—Le gouvernement est républicain.

QUESTIONNAIRE.

Quelles sont les bornes du Chili ?

Quel est le climat ? les mines qu'on y trouve ? les productions ? le commerce ?

Indiquez la capitale et les principales villes.

Quelle est la population ? le gouvernement ?

PATAGONIE.

Ce pays peu connu a été découvert en 1520 par Magellan. Il est habité par un grand nombre de nations sauvages, d'une taille fort élevée et robustes. Ces peuples, y compris ceux de la *Terre-de-Feu,* au nombre très-incertain de 200,000, sont pasteurs et n'ont pas d'habitations fixes.

QUESTIONNAIRE.

Donnez quelques notions sur la Patagonie.

EUROPE.

L'Europe, quoique la plus petite partie du monde, en est la plus importante. Elle surpasse, par son commerce, par sa puissance et sa civilisation, toutes les autres parties de la terre. Elle est la patrie des sciences, des arts et de l'industrie; et, proportion gardée de son étendue, c'est la plus peuplée des cinq parties du monde.

L'Europe est bornée au nord, par la mer Glaciale; à l'est, par les monts Ourals, la rivière Oural et la mer Caspienne; au sud, par le mont Caucase, la mer d'Azof, la mer Noire, la mer de Marmara et la Méditerranée; à l'ouest, par l'océan Atlantique.

La plus grande longueur de l'Europe est d'environ 1,250 lieues, et sa plus grande largeur de 900.

Description générale.—L'Europe étant presque en entier située sous la zone tempérée, jouit généralement d'un climat doux et d'un sol fertile.

Elle produit le blé et les grains, le vin, les fruits, la soie, le lin et le coton; rien n'excède le degré de perfection des manufactures et de l'agriculture de l'Europe. L'agriculture, surtout en Angleterre et en Suisse, est portée au plus haut point de perfection.

Les principales langues de l'Europe sont: l'Italien, l'Espagnol, le Portugais, le Français, l'Allemand, et l'Anglais.

Population.—La population de l'Europe est d'environ 288 millions, dont 150 millions sont catholiques.—La population augmente par année d'environ un million.

Mers, golfes, lacs.—Les mers intérieures de l'Europe sont la mer *Blanche*, la mer *Baltique*, la *Méditerranée*, la mer de *Marmara*, la mer *Noire*, la mer d'*Azof* et la mer *Caspienne*.

Les principaux golfes sont ceux de *Bothnie*, de *Finlande*, de *Livonie*, du *Zuyderzée*, de *Gascogne* ou baie de *Biscaye*, de *Lyon*, de *Gênes*, de *Venise*, et de *Tarente*.

Les lacs sont : en Suède, les lacs de *Wener*, *Weter* et *Meler* ; en Russie, les lacs *Ladoga*, *Onega*, *Saïma*, et *Peypus*, près de Saint-Pétersbourg ; en Hongrie, le lac *Balaton* ; en Suisse, les lacs de *Constance* et de *Genève* ; en Italie, les lacs *Majeur*, de *Côme* et de *Garde*.

Rivières et détroits.—Les fleuves et les rivières les plus remarquables sont le *Volga*, en Russie ; c'est le plus grand de l'Europe ; le *Don*, le *Dniéper*, le *Danube*, le *Rhin*, la *Tamise* et le *Tibre*.

Les autres rivières sont le *Niémen*, la *Vistule* et l'*Oder*, qui se jettent dans la *Baltique*, l'*Elbe* et le *Wéser* ; la *Seine*, qui se jette dans la Manche ; la *Loire* et la *Garonne*, dans la baie de Biscaye ; le *Duero*, le *Tage*, la *Guadiana*, le *Guadalquivir*, dans l'Océan Atlantique ; l'*Ebre* et le *Rhône*, dans la Méditerranée ; le *Pô*, dans le golfe de Venise ; la *Meuse* et l'*Escaut* qui traversent la Belgique, et se jettent dans la mer du Nord.

Les principaux détroits sont le canal de *Saint-George*, entre l'Irlande et le pays de Galles ; le canal de *Bristol*, en Angleterre ; la *Manche* et le *Pas-de-Calais* entre la France et l'Angleterre ; le détroit de *Gibraltar*, qui fait communiquer l'océan Atlantique avec la Méditerranée ; de *Bonifacio*, entre la Corse et la Sardaigne, le Phare de *Messine*, entre l'Italie et la Sicile ; le détroit des *Dardanelles*, entre l'Archipel et la mer de Marmara ; celui de *Constantinople* ou *Bosphore*, qui joint la mer de Marmara à la mer Noire ; le détroit de *Cafa* ou *Iénikalé*, qui joint la mer Noire à celle d'Azof.

Iles et montagnes.—Les principales îles sont : dans l'Océan Atlantique, la *Grande-Bretagne* et l'*Irlande* ; dans la mer Glaciale, le *Spitzberg* et la *Nouvelle-Zemble* ; dans la mer Baltique, l'île de *Zeeland* ; dans la Méditerranée, les îles de *Corse*, de *Sardaigne*, de *Sicile*, et de *Candie*.

Les îles moins considérables sont celles de *Guernesey* et *Jersey*, dans la Manche ; les îles *Baléares*, au sud de l'Espagne ; l'île d'*Elbe* (*a*), au nord de la Corse ; de *Malte* au sud de la Sicile, et les îles *Ioniennes*, à l'ouest de la Grèce.

Les montagnes les plus remarquables sont les monts *Koelen*, entre la Norvège et la Suède ; les monts *Ourals* ou *Poyas* et le *Caucase*, entre l'Europe et l'Asie ; les *Pyrénées*, entre la France et l'Espagne ; les *Alpes*, entre la France et l'Italie ; les *Apennins*, en Italie ; les monts *Carpathes*, qui séparent la Hongrie de la *Galicie ;* enfin les monts *Balkans*, en Turquie.

Le *Mont-Blanc*, dans les Alpes, est la plus haute montagne de l'Europe ; sa hauteur est de 15,800 pieds au-dessus de la mer.

Volcans.—Les volcans sont l'*Etna*, en Sicile ; le *Vésuve*, en Italie, près de Naples.

Presqu'îles. — Il y en a six principales, savoir : La *Suède* et la *Norvège*, l'*Espagne* et le *Portugal*, l'*Italie*, le *Jutland*, la *Morée* et la *Crimée*.

DIVISION DE L'EUROPE.

L'Europe est maintenant partagée en 16 parties principales, savoir :

4 au nord : les Iles Britanniques, le Danemark, la Suède avec la Norvège, et la Russie d'Europe.

5 au milieu : la France, la Suisse, les Pays-Bas, formant les royaumes de Belgique et de Hollande, la Prusse, la Confédération de l'Allemagne du Nord, et l'Autriche.

5 au sud : l'Espagne, le Portugal, l'Italie, la Turquie d'Europe et la Grèce.

(*a*) Célèbre par le séjour de Napoléon en 1814.

QUESTIONNAIRE.

Donnez quelques notions générales sur l'Europe.

Quelles sont les bornes et l'étendue de l'Europe? le climat? les principales langues parlées? la population?

Quelles sont les mers intérieures? les principaux golfes? les lacs? les fleuves et rivières? les détroits? les îles? les montagnes? les volcans? les presqu'îles?

En combien de parties principales peut se diviser l'Europe? Enumérez-les.

ILES BRITANNIQUES OU GRANDE-BRETAGNE.

Les Iles Britanniques se composent de la Grande-Bretagne, qui comprend l'Angleterre proprement dite, la principauté de Galles et l'*Écosse*; de l'Irlande, des Iles Hébrides, Orcades, *Shetland* et de quelques autres. Ces Iles réunies forment l'empire du *Royaume-Uni de la Grande-Bretagne et d'Irlande*, communément appelé *Angleterre.*

La Grande-Bretagne est l'empire le plus puissant de la terre sous le rapport du commerce, et de sa marine tant militaire que marchande.

Gouvernement.—Le gouvernement anglais est monarchique constitutionnel, formé de trois branches, qui sont: le roi, la chambre des *lords* ou seigneurs, et la chambre des *communes* ou des représentants, nommés par le peuple. Le roi est le chef de l'État et de l'Église. Il est majeur à 18 ans. Les affaires sont conduites par ses ministres, qui seuls sont responsables. Les femmes comme les hommes succèdent à la couronne d'Angleterre. Le fils aîné du roi porte toujours le nom de Prince de Galles. La reine actuelle d'Angleterre est Sa Majesté *Victoria*, fille du duc de Kent, et petite-fille de Georges III.

La chambre des lords est composée de deux archevêques et de vingt-quatre évêques. Le nombre des autres membres est indéfini, le roi pouvant l'augmenter à sa

volonté ; cependant 16 sont nommés par la noblesse d'Écosse, et 28 par celle d'Irlande. Les membres de la chambre des *lords* sont aussi appelés *pairs*.

La chambre des communes propose les lois, accorde les taxes et les subsides, et s'informe des griefs, soit des individus ou de la nation.

Population.—La population, est d'environ 33,090,000 habitants, dont un tiers environ professe le catholicisme ; le reste appartient à différentes sectes.

QUESTIONNAIRE.

De quoi se composent les Iles Britanniques ?

Sous quel rapport la Grande-Bretagne est-elle l'empire le plus puissant de la terre ?

Donnez quelques notions sur le gouvernement anglais ; sur la Chambre des Lords ; sur la Chambre des Communes.

Quelle est la population et la religion des Iles Britanniques ?

ANGLETERRE.

L'Angleterre proprement dite est bornée au nord, par l'Écosse ; à l'est, par la mer du nord ; au sud, par la Manche ; à l'ouest, par le canal Saint-George et la mer d'Irlande. L'Angleterre et le pays de Galles, qui en fait partie, se divise en 52 comtés.

Rivières.—Les principales rivières de l'Angleterre sont : la *Tamise*, la *Severn*, le *Humber*.

Iles.—Les îles qui dépendent de l'Angleterre proprement dite, sont : celles de *Wight*, de *Jersey*, *Guernesey*, *Aurigny*, *Scilly*, *Anglesea* et de *Man*.

Description générale.—Le climat est tempéré ; l'air y est ordinairement humide et le ciel couvert de nuages ; le sol fertile en blé et en grains, produit en abondance le houblon, le chanvre et le lin, des légumes et des fruits.

Elle renferme des mines de cuivre, d'étain, de plomb, de fer, de charbon et de sel-gemme.

Ses manufactures l'emportent sur celles de tous les autres pays, par leur variété, leur perfection et leur importance.

L'*anglicanisme* est la religion de l'État et la plus étendue.

Villes.—La capitale est *Londres*, sur la Tamise, qui la traverse et qui est navigable pour les plus gros vaisseaux. Cette ville, qui est aussi la capitale de l'empire britannique, a 3,489,000 habitants, et est la plus commerçante de l'univers. On y compte plus de 500 églises, et six ponts magnifiques sur la Tamise. On a fait sous les eaux de cette rivière un chemin souterrain, appelé *Tunnel*.

Les édifices les plus remarquables sont : la cathédrale de Saint-Paul, l'église de Saint-Étienne, le palais de *Saint-James*, résidence du souverain, celui de Whitehall, le bureau de la poste, la douane, l'hôtel de la Compagnie des Indes, la bourse, la banque, le musée britannique, la Tour de Londres, l'arsenal de la marine et la maison du parlement. Londres contient une foule d'établissements scientifiques, littéraires et de bienfaisance.

Les villes principales après Londres, sont *Liverpool*, *Manchester* et *Birmingham*, célèbres par leurs manufactures ; *Leeds*, centre du commerce des draps et des flanelles ; *Bristol*, *Bath*, *Portsmouth* et *Plymouth*, ports militaires ; *Norwich*, remarquable par ses manufactures de crêpe, de bombasin et d'étoffes de laine et de soie ; *Hull*, *York*, *Cantorbery* ; *Oxford* et *Cambridge*, célèbres par leurs universités composées de plusieurs colléges.

Population.—La population de l'Angleterre est de 22,244,000 habitants, sur une superficie de 6,400 lieues carrées.

QUESTIONNAIRE.

Quelles sont les bornes de l'Angleterre ?

Comment se divise-t-elle ?

Quelles sont les principales rivières ?

Quelles sont les îles qui dépendent de l'Angleterre ?

Parlez-nous de son climat ; de ses productions ; des mines qu'elle renferme ; de ses manufactures.

Quelle est la religion de l'État ?

Faites-nous connaître la capitale de l'Angleterre ; les édifices les plus remarquables que cette ville renferme ; les villes principales après Londres.

Quelle est sa population ? sa superficie ?

ÉCOSSE.

L'Écosse est bornée au nord, à l'est et à l'ouest, par l'Océan ; au sud, par les monts Cheviots et la rivière Tweed, qui la séparent de l'Angleterre. Sa superficie est de 3,090 lieues carrées.

L'Écosse est divisée en *Haute-Écosse*, qui comprend les montagnes, et en *Basse-Écosse*, qui renferme les parties basses. Ces deux *parties* sont divisées en 33 comtés.

Montagnes. — On remarque en Écosse les monts *Grampians*, *Cheviots* et *Pentland;* le pic de *Ben-Nevis*, dans le comté de Perth, est haut de 4,406 pieds.

Rivières.—Les rivières remarquables sont : le *Forth*, la *Tweed*, la *Tay*, la *Dee*, la *Spey* et la *Clyde*.

Iles.—Les îles qui dépendent de l'Écosse sont : les îles *Shetland*, les *Orcades* et les *Hébrides*.

Description générale. — Le climat est très-froid sur les montagnes ; les terres basses ont le même climat que celui de l'Angleterre.

L'Écosse produit le blé, l'orge, l'avoine, le lin, le chanvre et les légumes. Les mines sont de charbon, de plomb, de fer et d'alun ; on y trouve du cristal de roche.

Le commerce de l'Écosse consiste en avoine, étoffes de coton, toiles, fer, plomb, mousselines, bottines, papier, etc.

Le village de Carron, dans le comté de Stirling, possède les forges les plus étendues de l'Europe.

Villes.—La capitale est *Édimbourg*, bâtie sur trois collines, à deux tiers de lieue de la rivière Forth. Cette ville a un grand nombre de sociétés savantes ; ses écoles de médecine et de philosophie sont très-célèbres.

Les autres villes considérables sont : *Glasgow*, *Aberdeen*, *Greenock*, *Perth*, *Dundee* et *Carron*.

Population.—Sa population est de 3,527,000 habitants.

QUESTIONNAIRE.

Comment l'Écosse est-elle bornée ? quelle est sa superficie ?

Quelles sont les divisions naturelles et civiles de l'Écosse ?

Dites-nous quelles sont ses principales montagnes ; ses rivières les plus remarquables ; ses îles.

Parlez-nous du climat ; des productions ; du commerce.

Faites-nous connaître la capitale de l'Écosse.

Quelles sont les autres villes les plus considérables ?

Donnez le chiffre de sa population.

IRLANDE.

L'Irlande est située à l'ouest de la Grande-Bretagne, dont elle est séparée par la mer d'Irlande et le canal St George. Sa superficie est de 3,000 lieues carrées; elle est divisée en 32 comtés.

Lacs et baies.—Les lacs sont en grand nombre; les plus considérables sont le *Neagh*, le *Killarney*.

Les principales baies sont celles de *Dublin*, *Wexford*, de *Belfast*, de *Bantry* et un grand nombre d'autres plus ou moins considérables.

Rivières.—Les rivières sont: le *Shannon*, la *Lee*, la *Nore*, le *Borrow*, la *Liffey*, la *Boyne* et le *Bann*.

Description générale.—Le climat de l'Irlande est moins humide et plus chaud que celui de l'Angleterre. Le sol y est fertile. Les pâturages sont les plus beaux du monde, ce qui l'a fait appeler la *Verte Érin*.

On y trouve des minerais d'or et d'argent, de cuivre, de zinc, d'antimoine, de fer et de charbon.

Le commerce de ce pays consiste en grains, tuiles, viandes salées, beurre, bêtes à cornes, étoffes de laine, harengs et whiskey.

Villes.—La capitale est *Dublin*, sur la rivière Liffey; elle est la résidence du vice-roi d'Irlande. On y trouve une université, des manufactures et des beaux édifices.

Les villes principales sont: *Cork*, *Waterford*, *Belfast*, *Limerick*, *Londonderry*, *Galway* et *Sligo*.

Population.—La population de l'Irlande, est d'environ 5,300,000 habitants, dont les quatre-cinquièmes sont catholiques.

QUESTIONNAIRE.

Où est située l'Irlande? Quelle est sa superficie?

Quelles sont les principales baies, lacs et rivières?

Parlez-nous de son climat; de ses mines; de son commerce.

Faites-nous connaître la capitale de l'Irlande.

Quelles sont les principales villes?

Quelle est la population, et la religion qu'elle professe?

DANEMARK.

Le Danemark est borné au nord, par le Skager-Rack, qui le sépare de la Norvége ; à l'est, par le Cattégat, le Sund et la Baltique ; au sud, par la Prusse ; à l'ouest, par la mer du Nord.

Le Danemark comprend : le *Jutland*, les îles de *Zeeland*, de *Fionie* ou *Funen*, de *Langeland*, de *Laaland* et de *Falster*, dans la Baltique ; l'*Islande* et le *Groënland*, dans l'Atlantique.

Description générale.—Le climat est un peu froid et le sol assez fertile.

Le commerce consiste en poisson, bois, chevaux, bêtes à cornes, beurre, huile, goudron et duvet appelé *édredon*.

Villes.—La capitale est *Copenhague :* cette ville, une des premières de l'Europe, est située dans le fond du golfe de l'île de Zeeland.

Les villes les plus importantes sont : *Elseneur* et *Roskilde*, ancienne capitale.

L'*Islande*, appartenant au Danemark, est une île située vers la zône glaciale, au nord-est de l'Europe ; dans cette île est le mont Hécla, qui lance des pierres et des torrents de lave enflammée.

Population.—La population est de 1,900,000 habitants, la plupart luthériens. Le gouvernement est une monarchie limitée.

QUESTIONNAIRE.

Quelles sont les bornes du Danemark ?

Qu'est-ce que comprend le Danemark ?

Quel est son climat ? son commerce ?

Faites-nous connaître sa capitale ; donnez l'énumération de ses principales villes.

Donnez quelques notions sur l'Islande.

Quelle est sa population ? son gouvernement ?

LAPONIE.

La Laponie s'étend de l'est à l'ouest, depuis la mer Blanche jusqu'à l'océan Atlantique ; et du nord au sud, depuis la mer Glaciale jusqu'au 64e degré de latitude. Ce pays très-froid est peuplé par une race d'hommes à peu près sauvages, dont la taille est de quatre pieds et demi.

Les uns sont bergers, les autres vivent de pêche et de chasse. L'animal le plus utile est le renne, espèce de cerf, qui sert à la fois de cheval et de vache.

La Laponie appartient aux divers états qui l'environnent. Le commerce, en ce pays, consiste en peaux de rennes, pelleteries et poisson sec.

Population. — Environ 60 mille habitants, moitié chrétiens, moitié païens.

QUESTIONNAIRE.

Donnez-nous quelques notions sur la Laponie; quelle est son commerce; sa population?

SUÈDE ET NORVÈGE.

La Suède et la Norvège sont une presqu'île formant un seul royaume, borné au nord, par la mer Glaciale; à l'est, par la Russie et la mer Baltique; au sud, par la Baltique; à l'ouest, par l'Océan Atlantique.

La Suède et la Norvège sont partagées en six grandes régions.

Rivières.—Les principales rivières sont: en Suède, la *Tornea*, et en Norvège, le *Glommen*.

Iles.—Les îles qui appartiennent à la Suède sont: *Olan*, *Gothland* et *Saint-Barthélemi;* cette dernière est située dans les Antilles.

La Norvège fut assujettie au Danemark, en 1387, après avoir eu jusque-là des rois particuliers; elle fut indépendante jusqu'en 1808, époque où le général français Bernadotte en devint roi: mais, depuis 1814, elle est unie à la Suède. Elle a cependant conservé ses lois et ses priviléges.

Description générale.—Le climat est très-froid en hiver et fort chaud en été.

Le sol y est peu fertile, et produit le seigle, l'orge, l'avoine, les légumes et le blé; aussi du lin, du chanvre, des patates, et du tabac dans la partie du sud. Le nord est couvert de forêts, d'où l'on tire quantité de bois de construction. Le sapin de la Norvège est préféré pour les mâtures des bâtiments à celui des autres pays.

Le commerce de la Suède consiste en fer, acier, cuivre, bois, vaisseaux neufs, potasse et térébenthine.

Celui de la Norvège en bois, fer, morue et hareng, huile de poisson, goudron et bêtes à cornes.

Villes.—La capitale est *Stockholm*, capitale de la Suède; les autres villes importantes sont : *Gœtheborg*, *Malmo*, *Carlscrona*, *Calmar*, *Upsal* et *Christiania*, capitale de la Norvège.

Population.—La population de la Suède et de la Norvège est d'environ 5,860,000 habitants.

La religion dominante est le luthéranisme. Le gouvernement est une monarchie constitutionnelle.

QUESTIONNAIRE.

Quelles sont les bornes de la Suède et de la Norvège ?

En combien de régions naturelles se divisent-elles ?

Quelles sont les principales rivières ? les îles qui appartiennent à la Suède ?

Donnez-nous quelques notions historiques sur ces deux pays; sur leur climat; leur commerce; leurs productions.

Indiquez-nous la capitale ainsi que les principales villes.

Quelle est la population ? la religion dominante ? le gouvernement ?

RUSSIE.

La Russie se divise en deux parties, qui sont : la *Russie d'Europe* et la *Russie d'Asie*. La Russie d'Europe est bornée au nord, par la mer Glaciale ; à l'est, par la rivière Kara, les monts Ourals et la rivière Oural ; au sud-est et au sud, par la mer Caspienne et la Caucasie, la mer d'Azof, la mer Noire et la Turquie ; à l'ouest, par l'Autriche, la Prusse, la Baltique, le golfe de Bothnie et la Suède. Sa superficie égale la moitié de celle de l'Europe entière.

Rivières.—Les principales rivières sont : le *Volga*, le *Don*, la *Dvina*, le *Niémen* et la *Néva*.

Iles.—Les îles qui dépendent de la Russie, sont : le *Spizberg*, la *Nouvelle-Zemble*, d'*Aland*, *Dago* et l'*Œsel* ou l'*Ile-aux-Grues*.

Montagnes.—Ses montagnes sont : les monts *Ourals* et le *Caucase*, les monts *Voyaldi* et *Lépifanon*.

Description générale. — La Russie d'Europe renferme des mines d'or, d'argent, de cuivre et de fer.

Dans la partie du nord, le froid est très-rigoureux ; le climat est plus doux dans la partie du sud, jusqu'au 57e degré de latitude ; en deça, il est tempéré.

La Russie produit le blé, le vin, l'huile et le miel, la cire, le tabac, la cochenille dans la partie du sud. Les vastes forêts de la Russie sont couvertes de pins, de sapins et de chênes. Toutes ces productions font la plus grande partie de son commerce.

Villes.—La capitale est *Saint-Pétersbourg*, ville magnifique, située à l'embouchure de la Néva, et qui ne le cède en rien aux autres capitales de l'Europe.

Les autres villes remarquables sont : *Moscou*, autrefois capitale. Cette ville fut brûlée par les Russes en 1812, à l'arrivée de l'armée française, conduite par Napoléon : *Varsovie*, sur la Vistule, capitale de l'ancien royaume de Pologne ; *Kansan*, *Kief*, *Astrakhan* sur la mer Caspienne, *Odessa* sur la mer Noire, *Toula*, *Kronstadt* forteresses, *Riga* et *Arkhangel* sur la Dwina.

Gouvernement.—Le gouvernement est despotique, et le souverain porte le nom d'*Autocrate* ou de *Czar* de toutes les Russies.

La Russie d'Europe est divisée en 56 gouvernements, y compris ceux de la Pologne russe.

Population.—La Russie d'Europe contient environ 75 millions d'habitants, dont 54 millions sont de la religion grecque schismatique, c'est-à-dire qui ne reconnaissent point le Pape comme chef de l'Église. Il y a environ 7 millions de catholiques ; le reste appartient à différentes sectes, et beaucoup sont idolâtres.

QUESTIONNAIRE.

En combien de parties se divise la Russie ? Donnez-nous les bornes de la Russie d'Europe.

Quelles sont ses principales rivières ? îles ? montagnes ?

Parlez-nous de ses mines ; de son climat ; de ses productions.

Faites-nous connaître sa capitale, ainsi que les principales villes. Quel est son gouvernement ? ses divisions ? sa population ? les religions qu'on y professe ?

PAYS-BAS.

Les Pays-Bas sont bornés au nord et à l'ouest, par la mer du Nord ou d'Allemagne ; à l'est, par l'Allemagne ; au sud, par la France.

Depuis 1830, les Pays-Bas forment deux royaumes séparés et indépendants, savoir : le royaume de *Hollande* et le royaume de *Belgique*.

Rivières.—Les principales rivières de la Hollande et de la Belgique sont : le *Rhin*, la *Meuse* et l'*Escaut*.

HOLLANDE.

Ce royaume comprend 12 provinces la Hollande méridionale et septentrionale, la Zélande, Utretcht, Gueldre, Over-Yssel, Drenthe, Groningue, Frise et le Brabant septentrional, le Limbourg et le Luxembourg Hollandais.

La capitale est la *Haye*. Les villes principales sont *Rotterdam*, *Utretcht*, *Leyde*, *Groningue*, *Harlem* et *Amsterdam*. Gouvernement représentatif.

Population. — Environ 4 millions d'habitants. Le calvinisme est la religion dominante.

BELGIQUE.

La Belgique contient neuf provinces, savoir : le Brabant méridional, le Hainaut Namur, Liége, Anvers, la Flandre orientale et occidentale, le Luxembourg et le Limbourg belge.

La capitale est *Bruxelles*. A quatre lieues de cette ville, se donna, en 1815, la célèbre bataille de *Waterloo*, où toute l'Europe se réunit pour renverser Napoléon.

Les villes principales de la Belgique sont : *Gand*, *Anvers*, *Liége*, *Bruges*, *Tournay* et *Louvain*.

Gouvernement représentatif. Le catholicisme est la religion de plus des deux tiers de la population.

Population.—Environ 5 millions d'habitants.

QUESTIONNAIRE.

Quelles sont les bornes des Pays-Bas ?

Donnez quelques notions historiques sur les Pays-Bas.

Quelles sont les principales rivières de la Hollande et de la Belgique ?

Énumérez les provinces que comprend la Hollande.

Quelle est la capitale de la Hollande ? les principales villes ? la population ? la religion dominante ?

Combien de provinces comprend la Belgique ? énumérez-les.

Faites-nous connaître sa capitale ; ses villes principales ; sa population ; le gouvernement ; la religion dominante.

FRANCE.

La France est bornée au nord, par la Manche, la Belgique et l'Allemagne ; à l'est, par l'Allemagne, la Suisse et l'Italie ; au sud, par la Méditerranée et l'Espagne ; à l'ouest, par l'océan Atlantique.

Historique.—La France était dès les premiers temps habitée par les *Celtes* qui furent soumis par les Romains. Vers l'an 420, les Francs s'en emparèrent, et *Clovis* l'un de leurs rois se convertit au catholicisme avec toute sa nation. L'histoire de France est la plus belle et la plus intéressante des temps modernes.

La France a toujours protégé l'Église catholique, pour cette raison on l'appelle la *Fille aînée de l'Église.*

Montagnes.—Après les *Alpes* et les *Pyrénées*, les montagnes les plus remarquables sont : le mont *Jura*, qui la sépare d'avec la Suisse ; les *Vosges*, les *Ardennes* et les *Cévennes.*

Rivières.—Les rivières sont : la *Loire*, la *Garonne*, l'*Escaut*, le *Rhône*, la *Seine*, la *Meuse*, la *Somme*, la *Dordogne*, la *Saône*, l'*Allier*, le *Cher*, la *Marne*, l'*Oise*, etc.

Iles.—Les îles qui dépendent de la France, sont : la *Corse*, capitale *Ajaccio.* C'est la patrie de Napoléon-Bonaparte. La *Camargue*, les *Hyères*, *Ouessant*, *Groaix*, *Belle-Ile*, *Noirmoutiers*, l'*Ile-Dieu*, l'Ile de *Ré* et *Oléron.* Population de ces îles, environ 280 mille habitants.

On trouve en France le *Canal de Languedoc*, le plus beau de l'Europe ; il fait communiquer l'Océan avec la Méditerranée ; sa longueur est d'environ 50 lieues.

Les chemins de fer sont très-nombreux, et se réunissent tous dans la ville de Paris.

Description générale.—Le climat de France varie suivant la latitude.

Le sol de la France est fertile ; il produit, au nord, le blé, le lin, le chanvre et les fruits communs ; au milieu, les vins ; au sud, des vins exquis, les olives, les vers-à-soie, les figues, les oranges, les citrons, le miel, la cire, etc. Les vins les plus estimés sont ceux de la Champagne et de la Bourgogne.

La France contient des mines de fer, de charbon, de plomb, de cuivre, de couperose, de manganèse, d'antimoine et d'arsenic, etc. On y trouve des carrières de marbre, d'albâtre, de granit, d'ardoise, de craie, de plâtre et des pierres à moulage.

Le commerce consiste dans les productions dont nous venons de parler, et en articles de modes, soieries, étoffes, bijoux, quincailleries, huile d'olive, livres, papiers, tapisseries, etc.

Villes.—La capitale de la France est *Paris*, ville la plus peuplée de l'Europe après Londres, et la plus belle après Rome, sous le rapport des édifices. Paris est le rendez-vous de l'Europe et presque du monde entier, et le centre des sciences, des lettres et des arts. Ses manufactures sont célèbres ; entre autres, celles des Gobelins, de draps, de tapis, de bijouteries, de glaces et d'horlogeries. Sa population est d'environ 1,850,000 habitants.

Les villes principales sont : *Lyon*, seconde ville de la France, connue par ses manufactures de soie, ses étoffes d'or et d'argent ; *Marseille, Bordeaux, Lille, Rouen, Nantes, Toulouse, Amiens* et *Orléans*.

Les ports de mer sont : *Marseille* et *Bordeaux ; Brest, Toulon* et *Cherbourg* ports militaires ; *Dunkerque, Calais, Boulogne, Hâvre-de-Grâce, Saint-Malo, Saint-Nazaire, Nantes*, la *Rochelle, Rochefort* et *Bayonne*.

Gouvernement.—La France est aujourd'hui divisée en 87 départements administrés chacun par un préfet. Les départements sont subdivisés en sous-préfectures, cantons et communes. Le gouvernement français actuel est une république constitutionnelle représentative.

Population.—Son étendue est de 201,200 milles carrés, la France réunit 36,102,000 habitants, dont l'immense majorité est catholique.

QUESTIONNAIRE.

Quelles sont les bornes de la France ?

Donnez-nous quelques notions historiques sur la France.

Quelles sont les montagnes de la France ? les rivières ? les îles ?

Parlez-nous de son climat ; de ses productions.

Quelle est la capitale de la France ? ses principales villes ?

Quel est le gouvernement ? la superficie ? la population ?

SUISSE.

La Suisse, aussi appelée *République Helvétique*, est bornée au nord et à l'est, par l'Allemagne et l'Autriche ; au sud, par l'Italie ; à l'ouest, par la France.

La Suisse est divisée en 22 cantons, qui forment 22 petites républiques indépendantes. Près de la moitié des cantons sont catholiques, les autres sont protestants ou mixtes ; en voici les noms :

Soleure, Friboug, Lucerne, Zug, Schwitz, Underwalden, Uri, Tessin, et Valais ;	Catholiques.
Bâle, Berne, Vaud, Schaffouse, Zurich, Genève et Neuchâtel ;	Protestants.
Argovie, Glaris, Thurgovie, Saint-Gall, Appenzel et Grisons.	Mixtes.

Montagnes.—La Suisse est le pays le plus montagneux de l'Europe ; le *Jura* la traverse du sud-ouest au nord-est, et les *Alpes* au sud et au sud-est.

Les Alpes se divisent en *Alpes Hautes*, *Moyennes* et *Basses*. Les Hautes Alpes s'élèvent à 8,000 pieds de hauteur, et leur sommet est toujours couvert de glace et de neige. On traverse les Alpes par deux passages ou *cols ;* l'un est celui du mont *Saint-Gothard*, et l'autre celui du *Simplon*, construit par Bonaparte, lorsqu'il envahit l'Italie à la tête de l'armée de la république française. On trouve dans les Alpes le couvent du Grand Saint-Bernard, dont les religieux se consacrent au secours des voyageurs.

Rivières.—Les rivières de la Suisse sont : le *Rhin*, le *Rhône*, l'*Aar*, le *Tésin*, le *Linth*, la *Reuss*, et la *Saone* ou *Sarine*.

Description générale.—Le climat de la Suisse est froid dans les montagnes et tempéré dans les plaines. Le sol produit les bois, les grains, les vins, le chanvre, le lin, les fruits, les patates et les autres légumes. Les bêtes à cornes sont remarquables par leur grosseur. Le beurre et le fromage y sont excellents ; Gruyères, ville du canton de Fribourg, produit le fromage connu sous le nom de *Fromage de Gruyères*.

Les mines sont de porphyre, marbre, albâtre ; on y trouve des métaux de toutes sortes, du cristal de roche, du soufre et des eaux minérales.

Le commerce consiste en bêtes à cornes, fromage, beurre, suif, peaux, chanvre, lin, horlogerie, étoffes de coton, mousselines, bas, tabac et tissus de paille.

Villes.—*Berne*, est la capitale fédérale. Les villes principales sont : *Genève*, sur le lac du même nom, importante par ses fabriques ; *Bâle*, *Zurich*, *Lucerne* et *Schaffouse*, près de laquelle le Rhin, en se précipitant, forme une chute de 70 pieds.

Gouvernement.—Le gouvernement de la Suisse est une république fédérative à peu près semblable à celle des États-Unis d'Amérique. La *Diète* ou assemblée fédérative tient ses séances à Berne.

Population.—La population, en 1871, était de 2,670,000 habitants, dont un million de catholiques.

QUESTIONNAIRE.

Quelles sont les bornes de la Suisse ?

En combien de cantons et de républiques se divise-t-elle ? Indiquez les cantons dont elle se compose.

Parlez-nous de ses montagnes ; de ses rivières ; de son climat ; de ses productions ; de ses mines ; de son commerce.

Quelle est la capitale de la Suisse, avec les principales villes ?

Quel est le gouvernement ? la population ?

EMPIRE D'ALLEMAGNE.

L'empire d'Allemagne, ou la Confédération de l'Allemagne du Nord, est borné au nord, par la mer du Nord, le Danemark et la Baltique; à l'est, par la Russie; au sud, par l'Autriche et la Suisse; à l'ouest, par la France, la Belgique et la Hollande.

L'Empire d'Allemagne se compose aujourd'hui de 26 États, savoir : 4 royaumes, 6 grands-duchés, 5 duchés, 7 principautés, 3 villes libres et 1 province détachée de la France.

Les quatre royaumes sont : la *Prusse*, la *Bavière*, le *Wurtemberg* et la *Saxe*.

Les six grands-duchés sont ceux de *Bade*, de *Mecklembourg-Schwérin*, de *Hesse*, d'*Oldenbourg*, de *Saxe-Weimar* et de *Mecklembourg-Strélitz*.

Les cinq duchés sont ceux de *Brunswick*, de *Saxe-Meinigen*, d'*Anhalt*, de *Saxe Cobourg-Gotha* et de *Saxe-Altenbourg*.

Les sept principautés sont celles de *Waldeck*, de *Lippe-Detmold*, de *Schwartzbourg-Rudolstadt*, de *Schwartsbourg-Sondershausen*, de *Reuss-Schleis*, de *Schaumbourg-Lippe* et de *Reuss-Greiz*.

Les trois villes libres sont celles de *Hambourg*, de *Lübeck* et de *Bréme*.

Le territoire détaché de la France, en 1871, forme une province impériale, qui porte le nom d'*Alsace-Lorraine*.

La capitale de la confédération allemande est *Berlin*. Les villes principales sont : *Francfort*, *Aix-la-Chapelle*, *Cologne*, *Trèves*, *Mayence*, *Metz*, *Strasbourg*, etc.

Gouvernement.—Le gouvernement est constitutionnel. L'empereur, qui est le roi de Prusse, gouverne avec le secours de deux chambres : le Conseil fédéral, appelé *Bundesrath*, composé de 59 membres, et une Diète, nommée *Reichstag*, qui compte 397 députés.

Population.—D'après le dernier recensement, la population de l'empire allemand, y comprise l'Alsace-Lorraine, est de 42,726,000 habitants.

QUESTIONNAIRE.

Comment est borné l'empire d'Allemagne?

De combien d'États se compose-t-il? Donnez l'énumération de ces États.

Quelle est la capitale de l'empire? Quelles sont les villes principales?

Quel est le gouvernement? la population?

PRUSSE.

La Prusse est bornée à l'est, par la Pologne russe; au sud, par la Saxe, la Bavière et le Mein; à l'ouest, par la France, la Belgique et la Hollande; au nord, par la mer Baltique.

La Prusse, qui s'est accrue par la force et ses annexions violentes, comprend aujourd'hui 11 provinces; la Prusse proprement dite, le grand duché de Posen, enlevé à la Pologne, le Brandebourg, la Poméranie, la Silésie prussienne, le duché de Saxe, une partie de la Saxe-Royale, enlevée en 1866, l'ancienne Westphalie, Schleswig et Holstein, Hanovre, Hesse, le grand-duché du Bas-Rhin, (Province Rhénane.)

Les sept dernières faisaient partie de la Confédération Germanique, à laquelle elle a encore pris, en 1866, le Sleswig et le Holstein, ôtés en commun au Danemark, le grand-duché de Hesse électorale, les grand-duchés de Lunembourg et de Nassau, le comté de Hesse-Hambourg, le duché de Hesse-Darmstadt, et toute la Hesse supérieure, Mayence et les villes libres de Lübeck, de Francfort-sur-le-Mein, ancienne capitale de la Confédération; celle de Brême, sur le Weser, et la ville très-commerciale de Hambourg. Sa récente guerre avec la France lui a apporté encore une portion considérable de deux provinces françaises, dont elle a formé l'*Alsace-Lorraine*.

Villes.—Les principales villes sont: *Berlin*, capitale, *Königsberg, Dantzick, Posen, Munster, Cologne, Coblentz, Trèves, Thorne, Magdebourg*.

Population.—La Prusse s'est ainsi formé une population à elle de plus de 25 millions, dont 7½ millions au moins de catholiques.

Gouvernement.—C'est une monarchie constitutionnelle héréditaire.

QUESTIONNAIRE.

Quelles sont les bornes de la Prusse ?

Dites-nous quels sont les pays que la Prusse comprend aujourd'hui, et faites-nous connaître en même temps les accroissements qu'elle a pris de nos jours.

Quelles sont ses principales villes ?

Quelle est la population actuelle de la Prusse ? Quel est son gouvernement ?

BAVIÈRE.

Le royaume de Bavière se divise en 8 cercles : de la haute et de la basse Bavière, du Palatinal, Haut-Palatinal, de la haute, moyenne et basse Franconie et de la Souabe.

La capitale est *Munich* sur l'Isar.

Monarchie constitutionnelle. Population, environ 5,024,000 habitants, dont les trois-quarts sont catholiques.

WURTEMBERG.

Ce royaume est situé entre la Bavière et le grand duché de Bade.—La capitale est *Stuttgard*.—Monarchie constitutionnelle.—Population, environ 1,800,000 habitants, dont près de la moitié sont catholiques.

GRANDS DUCHÉS DE BADE ET DE HESSE-DARMSTADT.

Le duché de Bade, situé sur la rive orientale du Rhin, depuis le lac Constance jusqu'au duché de Hesse-Darmstadt, est formé de deux territoires séparés par celui de Francfort-sur-le-Mein. — La capitale est *Carlsruhe*.—Population du duché, 1,400,000 habitants.

La capitale de Hesse-Darmstadt est *Darmstadt*. *Mayence*, ville célèbre, appartient à ce duché.

SAXE.

Le royaume de Saxe est situé entre les provinces prussiennes au nord ; la Bohème et la Bavière au sud.—La population est de 2,760,000 habitants.—Monarchie constitutionnelle.

La capitale est *Dresde*, belle ville située sur l'Elbe, remarquable par sa bibliothèque.

QUESTIONNAIRE.

Faites-nous connaître en peu de mots, le royaume de Bavière ; le royaume de Wurtemberg ; les grands-duchés de Bade et de Hesse-Darmstadt ; le royaume de Saxe

---

AUTRICHE.

L'empire d'Autriche est borné au nord, par la Prusse et la Russie ; à l'est, par la Russie et la Turquie ; au sud, par la Turquie, la mer Adriatique et l'Italie ; à l'ouest, par la Suisse et la Bavière.

L'empire d'Autriche comprend deux grandes divisions : Les *pays allemands* ou *en-deça de la rivière Leitha*, et les *pays hongrois* ou *au-delà de la Leitha*.

Les pays allemands se subdivisent en 14 provinces, dont voici les noms : la *Basse-Autriche*, la *Haute-Autriche*, le *Salzbourg*, la *Styrie*, la *Carinthie*, la *Carniole*, la *Littorale*, le *Tyrol*, la *Bohême*, la *Moravie*, la *Silésie*, la *Galicie*, la *Bukovine* et la *Dalmatie*.

Les pays hongrois se subdivisent en 4 parties : la *Hongrie*, la *Transylvanie*, la *Croatie* et l'*Esclavonie*, les *Confins militaires*.

La capitale de l'empire est *Vienne*, située sur le Danube ; c'est une des plus importantes villes de l'Europe. Les villes principales sont : *Prague*, dans la Bohême, *Pesth* et *Bude* ou *Ofen*, dans la Hongrie.

Gouvernement.—Le gouvernement est une monarchie constitutionnelle.

Population.—La population de l'empire d'Autriche est d'environ 36,000,000 habitants, dont les deux tiers sont catholiques.

QUESTIONNAIRE.

Comment l'empire d'Autriche est-t-il borné ?

Comment cet empire se divise-t-il ? En combien de provinces se subdivisent les pays allemands ? les pays hongrois ?

Quelle est la capitale avec les principales villes de l'empire ?

Quel est son gouvernement ?

Quelle est la population ?

ESPAGNE.

L'Espagne est bornée, au nord, par la baie de Biscaye et les Pyrénées; à l'est et au sud, par la Méditerranée, le détroit de Gibraltar et l'Atlantique ; à l'ouest, par l'Atlantique et le Portugal.

Montagnes.—Les principales montagnes sont celles des Pyrénées, de la *Castille*, les monts de *Tolède*, de *Sierra-Morrena* et *Sierra-Nevada*.

Rivières.—Les principales rivières sont le *Tage* le *Duero* ou *Douro*, l'*Ebre*, le *Guadalpivir*, etc.

Iles.—Les îles qui dépendent de l'Espagne sont les îles *Baléares*, dont les plus importantes sont *Majorque*, *Minorque*, *Cabrera*, *Ivice* et *Formentara*.

Description générale.—Le climat varie suivant la position des lieux ; dans le centre, le climat est tempéré ; dans le midi, extrêmement chaud ; et près des Pyrénées, un peu froid et humide.

Le sol de l'Espagne est riche en céréales, fruits de toutes sortes, vignes et oliviers. C'est en Espagne que l'on trouve les moutons connus sous le nom de *mérinos*, dont la laine est si renommée ; les chevaux de l'Andalousie, de race arabe, passent pour les plus beaux de l'Europe. L'Espagne contient des mines de cuivre, de fer, de plomb, de mercure et de cristal.

Le commerce consiste en eau-de-vie (*Brandy*), vins, laines, figues, raisins, oranges, citrons, huile d'olive, soie, sel et grains.

Villes.—La capitale est *Madrid*, sur la rivière Manzanarès. Elle possède de nombreux établissements de littérature et de bienfaisance, et une bibliothèque royale de plus de 150,000 volumes.

Les villes principales sont *Barcelone, Séville, Grenade, Valence, Saragosse, Cadix* et *Cordoue.*

La ville de *Gibraltar*, sur le détroit de ce nom, renommée par sa situation militaire, appartient aux Anglais.

Gouvernement.—Le gouvernement est une monarchie constitutionnelle.

Population.—La population est d'environ 16½ millions d'habitants. La religion est la catholique.

QUESTIONNAIRE.

Comment l'Espagne est-elle bornée ?

Quelles sont ses principales montagnes ? ses principales rivières ? ses îles ?

Parlez-nous de son climat ; de ses productions ; des animaux renommés qu'elle possède ; des mines qu'elle contient ; de son commerce.

Faites-nous connaître la capitale de l'Espagne ; les villes principales ; la population ; la religion ; le gouvernement.

RÉPUBLIQUE D'ANDORRE.

Cette petite république occupe la vallée d'Andorre en Catalogne. Elle est gouvernée par un *syndic* et par deux *viguiers* nommés par la France et l'Espagne qui ont la suzeraineté de ce pays.

Capitale *Andorre*. Population totale, 18,000 habitants.

PORTUGAL.

Le Portugal est borné au nord et à l'est, par l'Espagne ; au sud et à l'ouest, par l'Atlantique.

Le sol, le climat et les productions du Portugal sont à peu près semblables à ceux de l'Espagne.

La capitale est *Lisbonne*, bâtie sur la rive droite de la rivière du Tage, près de son embouchure.

Les villes principales sont : *Oporto*, sur la rivière Duero, renommé par le vin connu sous le nom de vin de Porto ou de Port ; *Coïmbre*, *Sétubal*, *Braga* et *Elvas.*

Gouvernement.—Le gouvernement est une monarchie limitée.

Population. — Environ 4 millions d'habitants. Le catholicisme est la religion dominante.

QUESTIONNAIRE.

Comment le Portugal est-il borné ?

Faites-nous connaître le sol, le climat et les productions du Portugal ; la capitale ; les villes principales ; la population ; le gouvernement ; la religion.

ITALIE.

L'Italie est bornée au nord, par la France, la Suisse et l'Allemagne ; à l'est, par la mer Adriatique ; au sud, par le détroit de Messine ; à l'ouest, par la Méditerranée.

Le royaume d'Italie comprend toute la péninsule italienne, moins la république de Saint-Marin. Son étendue est de 114,000 milles carrés.

Montagnes. — Les montagnes de l'Italie sont : les *Alpes* et les *Apennins*. Dans ces derniers, se trouvent les volcans de l'*Etna* et du *Vésuve*. Près du Vésuve, plusieurs villes, entre autres *Herculanum* et *Pompeï*, furent, en l'an 79, ensevelies sous les cendres et la lave enflammée vomies par ce volcan.

Cours d'eau. — Les principales rivières sont : le *Pô*, l'*Adige*, le *Tésin*, l'*Arno* et le *Tibre ;* ses golfes sont ceux de *Gênes*, de *Venise* et de *Parenti ;* ses lacs sont le lac *Majeur* et celui de *Côme* ; et ses îles, la *Sicile*, la *Sardaigne*, la *Corse* et l'île d'*Elbe*, séjour de Napoléon.

Description générale. — Entre les Alpes et les Apennins, le climat est assez froid ; dans d'autres parties, il est tempéré et doux ; et dans d'autres, il est très-chaud.

La partie située dans la vallée du Pô, est d'une fertilité extrême : elle produit le froment, le vin, la soie, le riz, le maïs, le miel, la cire et les fruits ; dans les autres parties, le sol produit l'huile, le blé, l'olivier, les oranges et les citrons, le coton, la canne à sucre et les bananes.

On trouve en Italie l'albâtre, le marbre, le porphyre et les pierres fines. Tous ces objets entrent dans le commerce de l'Italie.

Villes.—Depuis 1870, la capitale du royaume d'Italie est la ville de *Rome*, située sur le Tibre. Les principales villes sont *Naples, Florence, Milan, Turin, Bologne, Gênes et Venise.*

Avant les conquêtes et les annexions violentes, faites

de nos jours par le roi d'Italie, Victor-Emmanuel, l'Italie se divisait en 10 états principaux, savoir : au nord, la *Sardaigne* et le royaume *Lombard-Vénitien* ; au milieu, les duchés de *Parme*, de *Modène*, de *Massa*, de *Lucques*, la *Toscane*, la république de *Saint-Marin* et les *États du Pape* ; au sud, le royaume de *Naples* ou des *Deux-Siciles*. (a)

Gouvernement.—Le gouvernement est une monarchie constitutionnelle.

Population.—La population du royaume d'Italie en 1871, était d'environ 26,800,000 habitants. La religion est le catholicisme.

SARDAIGNE.

Ce royaume comprenait l'île de Sardaigne, le Piémont et Gènes.

La capitale était *Turin*; les villes principales sont: *Gènes*, patrie de Christophe Colomb, *Alexandrie* et *Cagliari*, dans l'île de Sardaigne.

Population.—Environ 5 millions d'habitants catholiques.

ROYAUME LOMBARD-VÉNITIEN.

Ce royaume était borné au nord, par la Suisse et le Tyrol ; à l'est, par l'Illyrie et le golfe de Venise ; au sud, par les États du Pape, les duchés de Modène et de Parme ; à l'ouest, par le royaume de Sardaigne.

La capitale était *Milan*, ville importante par ses manufactures et son commerce. Les autres villes sont : *Venise*, *Vérone* et *Padoue*.

Population. — Environ 5 millions d'habitants. Ce royaume appartenait à l'Autriche. Le catholicisme est la religion dominante.

(a) Comme l'importance des anciennes divisions de l'Italie a survécu aux brusques changements qui les ont fait disparaître, il est bon d'ajouter quelques notions propres à les faire connaître.

PARME, MODÈNE, MASSA ET LUCQUES.

Le duché de Parme, situé au sud du Pô, contient une population de plus de 500,000 habitants. La capitale est *Parme*.

Le duché de Massa, situé entre ceux de Parme et de Modène, est la plus belle partie de l'Italie ; il renferme environ 50,000 habitants. La capitale est *Massa*.

Le duché de Modène a pour capitale *Modène* ; 32,000 habitants.

Le duché de Lucques est situé entre les duchés de Massa et de Toscane. La capitale est *Lucques*. Population, environ 150 mille habitants.

DUCHÉ DE TOSCANE.

Ce pays, renommé pour la richesse de son sol et sa beauté, a pour capitale *Florence*. Les villes principales sont : *Livourne*, *Pise* et *Sienne*. Population, 1,800,000 habitants.

ÉTATS DU PAPE ET DE L'ÉGLISE.

Ces états étaient bornés au nord, par le royaume Lombard-Vénitien ; à l'est, par la mer Adriatique ; au sud, par le royaume de Naples ; au sud-ouest et à l'ouest, par la Méditerranée, les duchés de Toscane et de Modène.

Historique.—Ces états ont été donnés à l'Église par *Pepin* et *Charlemagne*, rois des Français.

En 1860, les révolutionnaires italiens ont enlevé au Pape les quatre-cinquièmes de ses états, qui se sont trouvés dès lors réduits à cinq petites provinces, savoir : *Rome*, *Viterbe*, *Civita-Vecchia*, *Velletrie*, *Frosinone*. En 1870, le roi d'Italie, Victor-Emmanuel, s'est emparé du reste et a fait de la ville de Rome, la capitale de son royaume.

Villes.—La capitale des États du Pape était *Rome*, sur le Tibre ; c'est la ville la plus célèbre de l'univers et la residence du Pape, c'est aussi le centre de la catholicité. Elle a été fondée 753 ans avant Jésus-Christ ; sa population est de 200 mille habitants. Les villes principales sont *Bologne*, *Pérouse*, *Ravenne*, *Ferrare* et *Civita-Vecchia*.

Population.—La population totale des États du Pape était, en 1861, de 3,126,260 habitants, dont environ 12 mille Juifs.

ROYAUME DE NAPLES OU DES DEUX-SICILES.

Ce royaume comprenait toute la partie méridionale de l'Italie, et la Sicile. Il se divisait en 22 provinces. *Naples* était la capitale de ce royaume. Cette ville renferme 200 églises; elle a plusieurs colléges et un grand nombre d'hôpitaux. Les villes les plus remarquables sont: *Tarente* et *Reggio*. Population, plus de 9,000,000 d'habitants.

L'île de Sicile a pour capitale *Palerme*. Les autres villes sont: *Messine*, *Catane*, *Trapani* et *Syracuse*.

RÉPUBLIQUE DE SAINT-MARIN.

La ville et république de Saint-Marin, sur le golfe de Venise, possède un territoire de quatre lieues carrées. C'est le plus petit et l'un des plus anciens états de l'Europe. Sa population est d'environ 8,000 habitants. Elle est gouvernée par quatre *Capitaines*, élus tous les six ans.

QUESTIONNAIRE.

Quelles sont les bornes de l'Italie?

Quelle est l'étendue du royaume d'Italie?

Parlez-nous des montagnes de l'Italie; des principales rivières; des golfes; de ses lacs et de ses îles; du climat; de la qualité du sol et des productions.

Quelle est la capitale du royaume d'Italie? les principales villes? la population? la religion? le gouvernement?

Comment l'Italie se divisait-elle avant les annexions violentes faites au profit du roi de Sardaigne?

Donnez-nous quelques notions sur le royaume de Sardaigne; sur le royaume Lombard-Vénitien; sur les Duchés de Parme, de Massa, de Modène, de Lucques, de Toscane; sur les États du Pape.

Faites-nous connaître l'historique des États du Pape.

Donnez-nous quelques notions sur le royaume de Naples ou des Deux-Siciles.

Faites-nous connaître la république de Saint-Marin.

TURQUIE D'EUROPE.

La Turquie est divisée en deux parties, qui sont : la *Turquie d'Europe* et la *Turquie d'Asie.* (a)

La Turquie d'Europe est bornée au nord, par l'empire d'Autriche et la Russie ; à l'est, par la mer Noire et le détroit de Constantinople ; au sud, par la mer de Marmara, le détroit des Dardanelles, l'Archipel et la Grèce ; à l'ouest, par la Méditerranée et l'Adriatique.

Les divisions civiles de la Turquie sont : au nord-est, la *Roumanie*, la *Bulgarie* ; au nord-ouest, la *Bosnie* avec une partie de la *Croatie* et de l'*Herzégovine*, le *Monténégro*, la *Servie ;* au sud, l'*Albanie*, la *Roumélie ;* la *Thessalie* et dans la Méditerranée, l'île de *Candie.*

La Roumanie, la Servie et le Monténégro forment trois principautés vassales de l'empire, mais ayant chacune un gouvernement national et représentatif. La majorité de leurs populations est composée de chrétiens.

Description générale.—Le climat est en général doux et tempéré ; le sol fournit à peu près les productions de l'Italie. On y trouve des mines de fer et de cuivre. Les objets de commerce sont : la soie, les blés, les grains, les laines, le coton, les pierres précieuses, les tapis, les maroquins, les drogues et les épiceries.

La civilisation européenne s'introduit peu à peu dans ce pays, malgré le fanatisme musulman.

Villes.—La capitale est *Constantinople*, que les Turcs appellent *Stamboul.* Cette ville, bâtie par l'empereur Constantin, est admirablement située sur sept collines. Population, environ 600,000 habitants.

Les villes principales de la *Turquie d'Europe*, sont : *Andrinople, Salonique, Bukharest* et *Belgrade.*

Gouvernement.—Le gouvernement est le plus despotique que l'on puisse voir. Le souverain prend le titre d'Empereur et est appelé ordinairement *Sultan, Grand-Turc* ou *Grand-Seigneur.* Sa cour s'appelle la *Sublime-Porte* ou la *Porte*, et son conseil d'état se nomme le

---

(a) La Turquie est actuellement en guerre avec la Russie ; des changements dans la carte d'un de ces pays seront très-probablement le principal résultat de cette guerre.

Divan. Les gouverneurs de provinces portent le nom de *Pachas.*

Religion.—La religion des Turcs est un mélange des religions Juive et Chrétienne; elle a été fondée par un imposteur nommé Mahomet, en l'an 610. Ses sectateurs sont appelés Mahométans ou Musulmans ; ils firent plus d'une fois trembler l'Europe par leurs invasions.

Le chef de la religion s'appelle le *Grand-Muphti*, et les prêtres, *Imans.* Les *Dervis* sont des espèces de religieux.

Population.—La population de la Turquie d'Europe est d'environ 15,500,000 habitants.

QUESTIONNAIRE.

En combien de parties se divise la Turquie?

Quelles sont les bornes de la Turquie d'Europe? les divisions civiles? le climat? les productions et le commerce? la capitale avec les principales villes? le gouvernement? la population? la religion?

GRÈCE.

Les Grecs, autrefois si célèbres dans les arts et les sciences, et dont la civilisation a rempli toute la terre, furent longtemps asservis sous la domination des Turcs, ils en secouèrent le joug en 1820. Une lutte longue et sanglante s'en suivit, et elle ne fut terminée qu'en 1829, par l'intervention de l'Angleterre, de la France et de la Russie.

En 1829, le royaume de Grèce fut érigé et divisé en 10 départements. Cet état a un gouvernement constitutionnel. Le premier souverain, qui prit le titre de *roi des Hellènes*, fut Othon premier, fils du roi de Bavière.

Le royaume de Grèce, situé au sud de la Turquie, est composé de la *Livadie*, de la *Morée*, de l'île de *Négrepont*, des îles *Cyclades* et de quelques autres dans l'archipel.

On y trouve, comme en Italie, une grande variété de climats. Le sol y produit les blés, les grains, la vigne, l'olivier ; on y trouve des mines d'or, d'argent, de fer, de

plomb et d'étain, de nombreux troupeaux, et beaucoup de gibier et de poissons.

Les articles de commerce sont : les vins, l'huile d'olive, le coton, la soie, les blés, le raisin de Corinthe, les figues, les oranges et les citrons, les laines, le fromage et le miel.

Les villes sont : *Athènes*, célèbre capitale, *Missolonghi*, *Malvoisie*, *Mistra*, *Navarin*, *Patras*, *Lépante*, *Napoli-de-Romanie* et *Corinthe*.

Population.—La population, en 1871, était de 1,457,000 habitants.

QUESTIONNAIRE.

Donnez quelques notions historiques sur la formation du royaume de Grèce.

De quels pays se compose ce royaume? Quel est son climat? ses productions? ses mines? les articles de son commerce? ses villes principales? sa population?

ILES DE L'EUROPE.

Les principales îles de l'Europe, outre celles dont nous avons déjà parlé, sont : 1o. l'Ile de *Malte*, entre la Sicile et l'Afrique. Elle produit les oranges, les citrons, le coton, l'indigo, le safran et du miel délicieux. Elle appartient aux Anglais. Population, environ 146 mille âmes, en y comprenant *Gozzo* et *Comin*, deux petites îles qui l'avoisinent. 2o. Les Iles *Ioniennes* ou *République des Sept-Iles*, près de la côte occidentale de la Grèce, qui sont : *Corfou*, *Paxo*, *Sainte-Maure*, *Céphalonie*, *Téach*, *Zante* et *Cérigo*. Ces îles ont été réunies à la Grèce, en 1864. La capitale est *Corfou*, dans l'île de ce nom. Population, environ 241,000 habitants, partagés en trois classes, celle des nobles, des bourgeois et des cultivateurs.

QUESTIONNAIRE.

Donnez-nous quelques notions sur les principales îles de l'Europe.

ASIE.

L'Asie, la plus grande partie du monde, fut le berceau du genre humain. C'est en Asie que se sont formés les premières sociétés et les premiers gouvernements ; c'est encore en Asie que se sont accomplis tous les mystères de la religion chrétienne.

L'Asie est bornée au nord, par la mer Glaciale ; à l'est, par l'océan Pacifique ; au sud, par la mer des Indes : à l'ouest, par la mer Rouge, le canal de Suez, la Méditerranée, l'Archipel, la mer de Marmara, la mer Noire, le Caucase, la mer Caspienne, le fleuve Oural, les monts Ourals et le fleuve Kara.

Sa longueur est de 2,500 lieues, et sa largeur de 1,900 lieues.

Description générale.—Le climat de l'Asie varie suivant les latitudes et les zones ; mais en général, il est fort chaud.

L'Asie produit les blés, les vins, le riz et tous les fruits délicieux ; on en tire les drogues, les parfums, le café, les pierres précieuses, les perles, les épiceries, les soies, les cotons et la porcelaine ; on y trouve des mines d'or et d'argent, et des diamants en abondance.

Les animaux de l'Asie sont principalement le lion, le léopard, le tigre, l'éléphant, le rhinocéros, le chameau, le crocodile, les tortues, les singes et les perroquets.

Les langues principales de l'Asie sont : l'Arabe, le Grec, le Turc, le Persan, le Japonais, le Chinois, le Russe, l'Indou et le Mongol ; le français et l'anglais sont parlés dans chacune de leurs colonies.

La population est d'environ 800 millions d'habitants.

Les religions dominantes, en Asie, sont le Bouddhisme, le Brahmanisme, le Lamaïsme, l'Islamisme et le Sinto ou *culte des aïeux*.

Mers.—Les mers extérieures sont : l'océan *Glacial Arctique*, le *Grand Océan* ou la mer *Pacifique*, la mer des *Indes* et la mer de la *Chine*.

Les mers intérieures sont : la mer *Caspienne*, la mer *Noire*, la mer de *Marmara*, la *Méditerranée* et la mer *Rouge* ou *Golfe Arabique*.

Golfes.—Les golfes principaux sont : ceux de *Kara* et d'*Obi*, dans la mer Glaciale ; de *Tonquin* et de *Siam*, dans la mer de la Chine ; ceux de *Bengale* et d'*Oman*, formés par la mer des Indes ; le golfe *Persique* et le golfe *Arabique* ou la mer *Rouge*. (a)

Détroits.—Les principaux détroits sont : ceux de *Béhring*, entre l'Asie et l'Amérique ; de *Corée*, entre la Chine et le Japon ; de *Malacca*, entre l'Indo-Chine et l'Océanie ; de *Bab-el-Mandeb*, entre le golfe d'Ormus et la mer Rouge ; et enfin, ceux des *Dardanelles* et de *Constantinople*.

Iles.—Les îles les plus importantes sont : celles du *Japon*, *Lieou-Kieou*, de *Formose*, de *Ceylan*, les *Maldives*, de *Chypre*, dans la Méditerranée ; de *Rhodes*, de *Samos* et de *Scio*, dans l'Archipel.

Presqu'îles.—Les presqu'îles principales sont : l'*Indo-Chine*, l'*Indoustan*, l'*Arabie* et l'*Anatolie*.

Lacs. — Les principaux lacs sont : le lac d'*Aral*, le *Baïkal* ou lac *Bleu* et le lac *Asphaltite* ou mer *Morte*, dont les eaux sont imprégnées de sel et de soufre.

Montagnes. — Les principales montagnes sont : les monts *Altaï*, les monts *Bléours*, entre la Tartarie indépendante et la Chine ; les monts *Himalaya*, les plus hauts de la terre, et dont le plus élevé a 26 mille pieds de hauteur ; le *Caucase* et le *Taurus*.

C'est en Asie que se trouvent les monts *Liban*, *Thabor*, *Carmel*, *Sinaï* et *Horeb*, si célèbres dans les Livres Saints.

Volcans.—Les volcans les plus remarquables sont ceux du *Kamtchatka* et du *Japon*.

Rivières.—Les principaux fleuves et rivières sont : le *Houangho*, (*rivière Jaune*) le *Yang-Tsè-Kiang* (*rivière*

(a) Le seul canal est celui de Suez, ouvert au commerce en 1869 ; il relie la Méditerranée à la mer Rouge. Il a été construit par une compagnie française, sous la direction de M. de Lesseps.

Bleue, en Chine ; le *Meï-Nam*, dans le royaume de Siam ; le *Gange* et l'*Indus*, dans l'Hindoustan ; l'*Euphrate* et le *Tigre*, dans la Turquie d'Asie.

DIVISIONS DE L'ASIE.

L'Asie est divisée en douze grandes parties :

La Sibérie,	au nord.
L'empire Chinois, le Japon,	au centre et à l'est.
L'Indo-Chine, l'Hindoustan ou l'Inde,	au sud.
Le Béloutchistan, le Caboul ou Afghomistan, la Tartarie Indépendante ou Turkestan, la Perse, l'Arabie, les Pays Caucasiens, et la Turquie d'Asie.	à l'ouest.

QUESTIONNAIRE.

Donnez quelques notions générales sur l'Asie.

Comment l'Asie est-elle bornée ? quelle est son étendue ?

Quelles sont les productions ? les principaux animaux ? le climat ?

Quelles sont les langues parlées en Asie ? la population ? les religions dominantes ?

Quelles sont les mers extérieures ? les mers intérieures ? les principaux golfes ? les détroits ? les îles les plus importantes ? les principales presqu'îles ? les lacs ? les montagnes ? les volcans ? les fleuves ?

En combien de parties l'Asie est-elle divisée ?

SIBÉRIE.

La Sibérie est bornée au nord, par la mer Glaciale ; à l'est, par le détroit de Béhring et le Grand océan ; au sud, par l'empire chinois et le Turkestan ou Tartarie indépendante ; à l'ouest, par la mer Caspienne, le fleuve et les monts Ourals.

Ce pays, qui est très-grand et le plus froid de la terre, est situé dans le nord de l'Asie. La partie du sud et de l'ouest est assez fertile ; ailleurs, le sol n'est pas susceptible de culture. La Sibérie est renommée par ses fourrures. On y trouve des mines d'or et d'argent. C'est dans ce pays que le gouvernement russe envoie les prisonniers politiques et les criminels. La population de la Sibérie, est de 4,625,000 habitants, composée de différents peuples. La capitale est *Tobolkk*.

PAYS CAUCASIENS.

Les pays Caucasiens comprennent la *Caucasie*, la *Circassie* et le *Daghestan*, au nord du mont Caucause ; et au sud, l'*Abazie*, la *Mingrélie*, l'*Immirette*, la *Géorgie*, le *Shirwan* et l'*Érivan* (ci-devant Arménie persanne, conquise en 1827.)

On les appelle ainsi, parce qu'ils sont situés près du mont Caucase ; ils sont au nombre de neuf, dont nous avons donné les noms plus haut. Le climat de ces régions renferme tous les différents climats de l'Europe et en produit les fruits. Population, 1,155,000 habitants.

Les villes principales des pays Caucasiens sont : *Tiflis*, *Érivan* et *Bakou*.

Population.—La population de la Russie d'Asie est d'environ 5,780,000 habitants.

QUESTIONNAIRE.

Quelles sont les bornes de la Russie d'Asie?

Donnez quelques notions sur la Sibérie ; sur les pays caucasiens.

Quelle est la population de la Sibérie ? des pays caucasiens ? de la Russie d'Asie.

EMPIRE CHINOIS.

Les bornes de cet empire sont, au nord, la Sibérie ; à l'est, la mer du Japon, la mer Jaune et la mer Bleue ; au sud, la mer de la Chine et les deux Indes ; à l'ouest, le Turkestan et la Russie d'Asie.

Il se divise en quatre grandes parties, qui sont : 1o. au nord, la *Kalmoukie* ou *Droungaric*, la *Mongolie* et la *Mantchourie ;* 2o. à l'est, la *Corée ;* 3o. au sud-est, la *Chine* propre ; 4o. au sud-ouest, le *Grand* et le *Petit Thibet*.

Description générale.—L'empire Chinois renferme une grande variété de climats et de productions.

Le commerce fournit le camphre, l'aloès, le vernis, la porcelaine, le thé et quantité de drogues et plantes, le nankin, la gomme laque, etc.

Cet empire, fermé jusqu'à nos jours aux Européens, vient de leur être ouvert par suite des traités faits avec l'Angleterre et la France. Les États-Unis ont aussi fait un traité avec les Chinois. Par le traité de 1843, la Chine a cédé à l'Angleterre l'île de *Hong-Kong.*

La langue chinoise est composée de 350 monosyllabes ; et l'écriture de 80 mille signes hiéroglyphiques.

Villes.—La capitale est *Pékin,* dont la population est d'environ 2 millions d'habitants ; les villes principales sont : *Nankin, Canton* et *Macao.*

Gouvernement.—Le gouvernement est despotique ; l'empereur s'intitule *fils sacré du Ciel.* On adore sa personne. Les grands dignitaires s'appellent *Mandarins.* La Chine est quelquefois appelée le *Céleste Empire.*

Population.—La population est d'environ 475,000,000 d'habitants, dont 1 million environ sont catholiques.

QUESTIONNAIRE.

Quelles sont les bornes de l'empire chinois ?

En combien de parties se divise-t-il ?

Quels sont les climats, les productions et le commerce ?

Quelle est la capitale ? les principales villes ?

Donnez-nous quelques notions sur la langue et l'écriture chinoises ; sur les relations commerciales de l'empire avec les puissances civilisées.

Quelle est la population ? le gouvernement ?

JAPON.

Cet empire est composé d'îles situées entre le Grand océan et la mer du Japon. Ces îles sont celles de *Iéso, Niphon, Sikoff, Kiou-siou,* des *trois Kouriles* et de plusieurs autres.

Le Japon éprouve successivement de grands froids et de grandes chaleurs. Le sol offre les productions de la Chine.

Les étrangers, sous peine de mort, ne pouvaient aborder au Japon. Les Hollandais et les Chinois en avaient

seuls la permission ; mais des traités ont ouvert le Japon aux nations civilisées. La capitale est *Kioto* ou *Myako*, dans l'île de Niphon. Les villes principales sont : *Yedo*, *Osaka*, *Nagasaki*, *Yokohama*, etc.

Population.—Environ 33 millions d'habitants. Le gouvernement est absolu.

QUESTIONNAIRE.

Où est situé l'empire du Japon, et quelles sont les îles qui le composent ?

Quel est le climat et les productions ? Quelles sont ses relations avec les nations civilisées ? Quelle est la capitale avec les principales villes ? la population ? le gouvernement ?

INDE OU HINDOUSTAN.

Les bornes sont : au nord, le Thibet ; à l'est, l'Indo-Chine et le golfe de Bengale ; au sud, la mer des Indes ; à l'ouest, le golfe d'Oman, le Béloutchistan et le Caboul. On peut diviser l'Indoustan en quatre parties : 1o. l'Hindoustan Anglais ; 2o. les états indépendants ; 3o. les possession portugaises ; 4o. les possessions françaises.

L'Hindoustan anglais comprend les provinces de *Bengal*, de *Madras* et de *Bombay*. Les états indépendants sont : le *Népaul* et le *Boutan*.

Iles.—Les îles de l'Inde occidentale sont : *Ceylan*, qui appartient aux Anglais et dont la capitale est *Colombo* ; les *Maldives* et les *Laquedives*.

Description générale. —L'Hindoustan étant presque en entier situé sous la zone torride, il y fait des chaleurs excessives : cependant, en général, le climat est délicieux, l'air pur ; le sol fertile y produit tous les fruits de l'Europe et de l'Amérique, outre l'arbre à suif, le bétel, le jalap, l'opium, le gingembre, l'aloès, le camphre, les bois précieux, les diamants et les perles, l'or et l'argent,

L'Hindoustan fournit au commerce, outre les productions dont nous venons de parler, les soieries, le sucre, le riz, le zinc, l'étain, l'acier, le fer, l'or, l'argent, le marbre, l'albâtre, le charbon, le sel, le soufre et le salpêtre.

Villes.—Les villes principales des possessions anglaises sont : *Calcutta*, capitale ; *Surate*, *Madras*, *Bombay* et *Delhi*.

La *Compagnie des Indes*, société de marchands anglais, a possédé pendant longtemps le gouvernement et le commerce des possessions anglaises; mais les priviléges de cette compagnie puissante ont été révoqués. Le commerce des Indes est maintenant libre, et les possessions de la compagnie font partie de l'empire Britannique.

La population des états indépendants est d'environ 4 millions d'habitants ; celle des possessions françaises, 225 mille ; le chef-lieu est *Pondichéry*.—Possessions portugaises, 750 mille habitants ; chef-lieu *Goa*.

Population.—La population de l'Hindoustan anglais' y comprise celle des états tributaires, est d'environ 240,025,000 d'habitants. La religion dominante est le brahmisme. Il y a environ un million et demi de chrétiens.

QUESTIONNAIRE.

Quelles sont les bornes de l'Hindoustan ?

Comment peut-on le diviser ?

Quelles sont les possessions anglaises ? les états indépendants ?

Quelles sont les îles de l'Inde occidentale ?

Quel est le climat ? les productions ? le commerce ? les villes principales ? la religion dominante ?

Donnez quelques notions historiques sur la situation politique de l'Inde anglaise ; sur la population des états indépendants, sur les possessions françaises et portugaises. Quelle est sa population totale ?

INDO-CHINE.

Ses bornes sont : au nord, le Thibet et la Chine ; à l'est, la mer de Chine ; au sud, le détroit de Malacca ; à l'ouest, le golfe de Bengale et l'Hindoustan.

Ce pays se divise en sept parties, savoir : les possessions anglaises, l'empire Birman, le royaume de Siam, l'empire d'Annam, la Cochinchine française, le royaume de Cambodge et la presqu'île de Malacca.

Le climat et les productions sont semblables à ceux de l'Hindoustan.

1. *Les possessions Anglaises* sont : les provinces d'*Aracan*, de *Tavoi*, de *Pégu* et de *Ténassérim*, conquises sur les Birmans, en 1826.

2. *L'Empire Birman* a pour capitale *Mandalé*. Le premier personnage de l'empire, après l'empereur, est un éléphant blanc. Population, environ 6 millions d'habitants. Gouvernement très-despotique.

3. *Le Royaume de Siam* a pour capitale *Bankok*. Population, environ 7 millions d'habitants. Gouvernement très-despotique.

4o L'*Empire d'Annam ou Cochinchine* comprend le *Tonquin*, la *Cochinchine* et le *Tsiampa* Capitale, *Hué*. Population, environ 12 millions d'habitants.

5o. *La Cochinchine française*, conquise au dépens de l'empire d'*Annam*, est baignée au sud, par la mer de la Chine. Capitale, *Saïgon*. Population, environ 1,200,000 habitants.

6o. *Le royaume de Cambodge*, partie détachée de l'empire d'Annam, est placé sous le protectorat de la France. Capitale, *Oudong*. Population, environ 1 million d'habitants.

7. *La presqu'île de Malacca* appartient partie aux Anglais, partie aux Siamois. Population, environ 2,000,000 d'habitants.

QUESTIONNAIRE.

Quelles sont les bornes de l'Indo-Chine?

Comment se divise-t-elle?

Quels en sont le climat et les productions?

Donnez quelques notions sur les possessions anglaises; sur l'empire Birman; sur le royaume de Siam; sur l'empire d'Annam; sur la Cochinchine française; sur le royaume de Cambodge; sur la presqu'île de Malacca,

---

BÉLOUTCHISTAN.

Borné au nord, par le *Caboul*; à l'est, par l'*Hindoustan*; au sud, par le golfe d'*Oman*; à l'ouest, par la Perse.

Ce pays se divise en sept provinces; la capitale est *Kélat*.

Population, environ 2,000,000 d'habitants.

CABOUL OU AFGHANISTAN.

Les principales villes de ce pays sont : *Caboul*, capitale, *Candahar* et *Hérat*.

Population, environ 6 millions d'habitants.

Gouvernement féodal.

TARTARIE-INDÉPENDANTE OU TURKESTAN.

Bornée au nord, par la *Sibérie* ; à l'est, par l'empire *Chinois* ; au sud, par le *Caboul* et la *Perse* ; à l'ouest, par la mer *Caspienne*.

Le climat est généralement froid ; on y trouve des pierres précieuses et des animaux à fourrures.

La capitale est *Boukhara* ou *Bukhara*.

Population, environ 7 millions d'habitants.

PERSE OU IRAN.

La Perse est bornée au nord, par la *Russie d'Asie*, la mer *Caspienne* et le *Turkestan* ; à l'est, par le *Caboul* et le *Béloutchistan* ; au sud, par le détroit d'*Ormus* et le golfe *Persique* ; à l'ouest, par la *Turquie d'Asie*. Ce pays se divise en 20 grandes provinces.

Les parties situées près de la mer Caspienne éprouvent de fortes chaleurs en été, et un hiver très-doux ; dans les autres parties, la température est humide.

Les productions sont, en général, celles de l'Europe et de l'Asie. Le commerce consiste en soie, étoffe de soie, tapis appelés de *Turquie*, châles, poil de chèvre, vins, chevaux, porcelaines et bijoux.

La capitale est *Téhéran* ; les autres villes principales sont : *Ispahan*, *Tauris* et *Casbin*.

Population. — Environ 4,500,000 habitants. Gouvernement despotique. Le souverain porte le titre de *schah* qui répond à celui de roi, etc.

QUESTIONNAIRE.

Quelles sont les bornes du Béloutchistan? Comment se divise-t-il? quelle est la capitale? la population?

Donnez quelques notions sur le Caboul?

Comment est bornée la Tartarie Indépendante? quel en est le climat? la capitale? la population?

Quelles sont les bornes de la Perse? comment se divise-t-elle? quel est le climat? les productions? le commerce? la capitale? les villes principales? la population? le gouvernement?

ARABIE.

Bornée au nord, par la *Turquie d'Asie*; à l'est, au sud et à l'ouest, par les golfes *Persique*, d'*Oman* et la mer *Rouge*.

Elle se divise en six provinces, qui sont : l'*Hedjaz*, le *Nedjed*, l'*LAhsa*, l'*Oman*, l'*Hadramaout* et l'*Yémen*.

Villes principales: la *Mecque*, *Médine*, où est le tombeau de *Mahomet*, et *Moka*, d'où vient le café de ce nom.

Population, environ 6 millions d'habitants.

L'Angleterre possède la ville d'*Aden*, située à l'entrée du détroit de Bab-el-Mandeb. Cette ville, par sa position, rend les Anglais maître du commerce de la mer Rouge.

QUESTIONNAIRE.

Comment l'Arabie est-elle bornée? comment se divise-t-elle? quelles sont les villes principales? la population?

Quelle possession a l'Angleterre en Arabie?

TURQUIE D'ASIE.

Bornée au nord, par la mer *Noire* et les provinces russes; à l'est, par la *Perse*; au sud, par le *golfe Persique* et l'*Arabie*; à l'ouest, par la mer *Rouge*, le canal de *Suez*, la *Méditerranée* et l'*Archipel*.

La Turquie d'Asie comprend sept parties principales, savoir : l'*Asie-Mineure* ou *Anatolie*, l'*Arménie*, le *Kourdistan*, la *Mésopotamie* ou *Al-Djezireh*, la *Babylonie* ou *Irak-Arabi*, la *Syrie* et le *Hedjaz*.

Iles.—Les principales îles de la Turquie d'Asie sont : *Ténédos*, *Scio*, *Rhodes*, *Chypre* et *Pathmos*, où St.-Jean a écrit l'Apocalypse.

Historique.—Cette célèbre contrée a été le théâtre des principaux événements consignés dans l'Evangile. Elle renferme la Terre-Sainte où s'accomplit les mystères de la rédemption du genre humain par le Fils de Dieu.

Villes. — Les villes sont : *Constantinople*, capitale de la Turquie ; *Trébisonde*, dans l'Anatolie ; *Erzeroum*, dans l'Arménie ; dans l'*Algezireh*, *Diarbékir* ; dans l'Irak-Arabi, *Bassorah* ; dans la Syrie, *Alep*, *Damas*, *St. Jean d'Acre* et *Jérusalem*.

Population.—Environ, 16,050,000 habitants.

QUESTIONNAIRE.

Quelles sont les bornes de la Turquie d'Asie? Comment se divise-t-elle ?

Quelles sont les principales îles de la Turquie d'Asie ?

Quelles sont les villes principales ? la population ?

—:o:—

AFRIQUE.

L'Afrique est bornée au nord, par la *Méditerranée* ; à l'est, par le canal de *Suez*, la mer *Rouge*, la mer des *Indes* ; au sud, par le grand *Océan Austral* ; à l'ouest, par l'*Océan Atlantique*. Sa longueur est de 1,700 lieues et sa largeur de 1,500.

L'intérieur de cette partie du monde est peu connu.

Golfes.—Les golfes principaux sont ceux de *Tunis*, d'*Aden*, de *Guinée*, de *Benin* et de *Biafra*.

Détroits.—Les détroits sont ceux de *Gibraltar*, de *Bab-el-Mandeb* et le canal de *Mozambique*.

Lacs.—Les principaux lacs sont le lacs *Tchad* ; le lac *Dembéa* ; le lac *Nyassa* ; le lac *Albert-Nyauza* et le lac *Victoria-Nyauza*.

Fleuves.—Les fleuves sont le *Nil*, le *Niger* ou *Quorra*, le *Coanza*, le *Congo*, le *Sénegal* et la *Gambie*.

Montagnes.—Les principales montagnes sont l'*Atlas*, les monts *Kong*, et les monts *Lupata*.

Description générale.—Le climat de l'Afrique est, en général, brûlant, et plusieurs parties en sont malsaines.

Presque toutes les productions des autres parties de la terre se trouvent en Afrique.

Les animaux de l'Afrique sont le lion, l'éléphant, le chameau, le buffle, le rhinocéros, les singes, l'hippopotame, l'autruche, le crocodile, des serpents énormes, etc.

On trouve en Afrique l'or le plus pur, le fer, le cuivre, le sel, le salpêtre, le natron, des pierres précieuses, l'ivoire, l'ambre, le corail et les perles, les épices, les gommes, la myrrhe, l'encens, etc.

Presque tous les gouvernements de l'Afrique sont despotiques et cruels.

Population.—La population de l'Afrique est d'environ 150 millions d'habitants ; mais ce chiffre est incertain.

DIVISIONS DE L'AFRIQUE.

L'Afrique se divise en 21 parties principales, savoir :

L'Égypte, la Nubie et l'Abyssinie.	au nord-est.
La Barbarie, et le Sahara ou Grand-Désert.	au nord.
La Sénégambie, la Guinée, le Congo.	à l'ouest.
La Nigritie, La Cafrérie,	au milieu.
Le cap de Bonne-Espérance, le pays des Hottentots, la Cimbébasie, la Colonie de Natal, la république de rivière Orange, la répub ique de Transvaal et le pays des Toulous.	au sud.
Les côtes d'Ajan, (y compris le royaume d'Adel,) de Zanguébar, de Mozambique et Sofala.	à l'est.

QUESTIONNAIRE.

Quelles sont les bornes et l'étendue de l'Afrique ?

Quels sont les principaux golfes ? les détroits ? les fleuves ? les principales montagnes ? le climat et les productions ? comment se divise-t-elle ? Quels sont les gouvernements ? la population ?

ÉGYPTE.

Bornée au nord, par la Méditerranée ; à l'est, par le canal de Suez et la mer Rouge ; au sud, par la Nubie ; à l'ouest, par les déserts de Sahara et de Lybie.

L'Égypte se divise en trois parties, la Haute, la Moyenne et la Basse-Égypte.

Le climat est chaud, peu salubre, et le sol fertile, en grande partie arrosé par les eaux du Nil, produit le blé, le riz, le coton, l'indigo, le sucre, l'huile, les dattes, les oranges, des plantes médicinales, etc. C'est le plus ancien pays du monde. L'Égypte appartient à l'empire de Turquie ; elle est gouvernée par un pacha héréditaire, qui a le titre de vice-roi.

La capitale est le *Caire ;* les villes principales sont *Alexandrie*, *Suez*, *Ismaïlia*, *Port-Saïd*, *Damiette*, *Rosette* et *Siout*.

Population.—Environ 5,250,000 habitants, composée de Coptes, de Turcs, d'Arabes, de Grecs et de Juifs.

QUESTIONNAIRE.

Comment l'Égypte est-elle bornée ?
Comment se divise-t-elle ?
Quel est le climat et les productions ? la capitale et les villes principales ? la population ? le gouvernement ?

NUBIE.

La Nubie est située au sud de l'Égypte. La capitale est *Sennaar*. La population est d'environ 40,000 habitants. Le climat, quoique très-chaud, est salubre. Le commerce consiste en poudre d'or, plumes d'autruches, bois de sandal, ébène.

ABYSSINIE.

L'Abyssinie est au sud-est de la Nubie. Le sol est très-fertile ; on y fait jusqu'à deux ou trois récoltes par année. Les productions sont : le café, la myrrhe, les gommes, l'encens, l'or, l'ivoire. La capitale est *Gondar*. Population, 4 à 5 millions d'habitants, la plupart chrétiens.

BARBARIE.

Ce pays se divise en quatre parties principales, qui sont : l'empire de Maroc, l'Algérie et les régences de Tunis et de Tripoli, dont les capitales portent les mêmes noms. Les productions sont celles de l'Europe et de l'Afrique. On y trouve des mines d'argent, de cuivre et de fer.

Les chevaux de la Barbarie ont une grande réputation. Population, 10 à 12 millions d'habitants.

ALGÉRIE.

La régence d'Alger, qui faisait autrefois partie des états de la Barbarie, appartient depuis 1830 aux Fran-

çais, qui y ont établi une colonie sous le nom d'Algérie, et continuent leurs conquêtes dans les pays environnants. L'Algérie est divisée en trois provinces, savoir : *Alger*, *Oran* et *Constantine*, qui ont pour chefs-lieux les villes du même nom.

Les autres villes sont : *Bône*, *Bougie*, *Mostaganem*, *Tlemsen*, *Mascara* et *Sidi-Bel-Abbès*.

Population.—La population de l'Algérie est d'environ 3,000,000 d'Arabes et de 180,000 Européens.

DÉSERT DE SAHARA.

Cette partie de l'Afrique est couverte de sables mouvants, qui, lorsqu'ils sont soulevés par un vent terrible appelé le *Simoun*, ensevelissent les voyageurs. La population est errante, et compte à peu près 2 millions d'habitants.

SÉNÉGAMBIE OU SÉNÉGAL.

Ce pays est très-fertile, très-chaud et malsain. Population, environ 12 millions d'habitants. Les Français y ont un établissement, dont le chef-lieu est *Saint-Louis*.

LIBÉRIE.

C'est une colonie américaine joignant la Sénégambie. Fondée en 1821, la Libérie est dans un état prospère. C'est une république modelée sur celle des États-Unis. La ville principale est *Morovia*. La population est d'environ 720,000 habitants, la plupart indigènes.

GUINÉE.

Vaste pays au sud de la Sénégambie, situé le long de la mer. On tire de ce pays la poudre d'or, le poivre et l'ivoire.

La population est d'environ 10,000,000 d'habitants.

SIERRA-LÉONE.

C'est une colonie anglaise établie dans la Guinée, en 1787, ayant pour capitale *Freetown*. La population est d'environ 60,000 habitants, la plupart nègres émancipés. Le climat est des plus malsains.

Les Portugais possèdent un comptoir à *Juda ;* les Anglais possèdent les royaumes d'*Ahanta* et d'*Accra*, le fort *Christianborg*, sur la Côte d'Or.

CONGO.

Le Congo se divise en plusieurs royaumes, dont les principaux sont ceux de *Loango*, d'*Angola*, de *Cacongo*, de *Congo* proprement dit et de *Benguela*.

Le climat est très-malsain pour les Européens.

Les Portugais possèdent le *Congo* proprement dit.

Population, environ 7 millions d'habitants.

NIGRITIE.

La Nigritie renferme une quantité d'états indépendants, dont les plus remarquables sont *Barbamra*, *Tombouctou*, *Haoussa*, *Bornou*, *Darfour* et *Cordovan*. L'état de *Bornou* passe pour le plus considérable. La ville la plus importante est *Tombouctou*.

Population, environ 25 millions d'habitants. Le climat de la Nigritie est salubre, le sol fertile et bien arrosé, riche en productions végétales de toutes sortes.

CAFRÉRIE.

La Cafrérie, située au sud de la Nigritie, est encore imparfaitement connue. Les Anglais y ont formé la colonie de *Natal*.

CAP DE BONNE-ESPÉRANCE ET PAYS DES HOTTENTOTS.

Le cap de Bonne Espérance fut découvert par les Portugais vers l'an 1498. Ils y fondèrent un établissement.

Depuis 1806, les Anglais sont maîtres de cette colonie importante. Cette partie de l'Afrique, en y comprenant le pays des Hottentots, a une étendue de 300 lieues. Population, environ 500,000 habitants. La capitale du cap est le *Cap* ou *Cape-Town*.

COTE D'AJAN, ETC.

COTES ORIENTALES DE L'AFRIQUE.

Toute cette partie de l'Afrique est peu connue. Elle renferme la côte d'*Ajan*, le royaume d'*Adel*, le *Zanguébar*, le *Mozambique* et la côte de *Sofala*.

ILES DE L'AFRIQUE.

Les îles de l'Afrique sont : à l'orient, l'île *Socotora*, les îles *Seychelles*, *Amirantes*, *Comores* et celle de *Madagascar*, longue de 375 lieues. Les Français ont trois établissements dans cette île. L'île de *Bourbon*, qui appartient aux Français ; celle de *France*, aujourd'hui appelée *Mauritius*, colonie anglaise, dont la capitale est *Port-Louis*.

A l'occident, les *Açores*, capitale *Angra*. Elles appartiennent au Portugal ; les îles *Madère*, connues par le vin de ce nom, capitale *Funchal*, qui appartiennent à l'Angleterre ; les îles du *Cap-Vert*, qui appartiennent aux Portugais ; *Saint-Mathieu* ; *Fernando-Po*, colonie espagnole ; l'île de *Saint-Thomas*, aux Portugais ; *Annobon*, aux Espagnols ; l'*Ascension* et *Sainte-Hélène* où Napoléon mourut le 5 mai 1821. Ces deux îles appartiennent aux Anglais. Les *Canaries*, au nombre de 13, dont la principale est *Ténériffe* où se trouve la fameuse montagne connue sous le nom de *Pic de Ténériffe*, haute de 12,500 pieds. La capitale est *Santa-Crux*. C'est de ces îles, qui appartiennent aux Espagnols, que vient le vin appelé vin de *Ténériffe*.

QUESTIONNAIRE.

Faites-nous connaître la Nubie ; l'Abyssinie ; la Barbarie ou États Barbaresques ; l'Algérie ; le désert de Sahara ; la Sénégambie ; la république de Libérie ; la Guinée ; Sierra-Léone ; le Congo ; la Nigritie ; la Cafrérie ; la colonie du cap de Bonne-Espérance et le pays des Hottentots ; les côtes orientales de l'Afrique.

Faites-nous connaître les îles qui sont situées à l'orient de l'Afrique ; celles qui sont situées à l'occident.

OCÉANIE.

L'Océanie est composée d'une multitude immense d'îles situées dans le Grand océan Boréal ou mer du Sud, aussi appelée mer Pacifique.

L'Océanie étant en grande partie située entre les deux tropiques, est, en général, exposée à de grandes chaleurs. Les productions sont à peu près celles de l'Inde.

Détroits.—Les principaux détroits de l'Océanie sont le détroit de *Malacca*, entre la presqu'île de Malacca et l'île de Sumatra ; de *Macassar*, entre les îles Bornéo et Célèbes; de *Torrès*, entre la Nouvelle-Hollande et la Nouvelle-Guinée; de *Bass*, entre la Nouvelle-Hollande et l'île de Van-Diémen ; de *Cook*, entre les deux parties de la Nouvelle Zélande.

Montagnes.—Les montagnes les plus remarquables de l'Océanie sont le mont *Ophir*, dans l'île de Sumatra, les montagnes *Bleues*, dans la Nouvelle-Hollande, et les monts *Cristallins*, dans l'île de Bornéo.

DIVISIONS DE L'OCÉANIE.

Elle se divise en trois parties principales, savoir : à l'ouest, l'*Archipel Indien* ou *Malaisie ;* au sud, l'*Australie ;* au nord et à l'est, la *Polynésie* septentrionale et méridionale.

ARCHIPEL-INDIEN.

Les îles les plus importantes de l'Archipel-Indien, sont :

1o. Les îles de *La Sonde*, dont les principales sont : *Sumatra, Java* et *Bornéo.*

Sumatra, qui a 375 lieues de long, appartient aux Hollandais, en grande partie. Population, environ 4,500,000 habitants.

Java a 250 lieues de long; la capitale est *Batavia*, ville bien bâtie, mais malsaine. Population, environ 17,855,000 habitants, en y comprenant l'île de *Madura*.

Bornéo, qui a 300 lieues de long, a pour capitale *Bornéo*. Population, environ 5 millions d'habitants. Cette île et celle de Java appartiennent aux Hollandais. Les Anglais y possèdent la ville de *Sarawak*.

2o. Les Philippines, dont la principale est *Luçon*. La capitale est *Manille*, grande et belle ville peuplée de 230 mille habitants. Elle appartient aux Espagnols. Population de ces îles, environ 5,000,000 d'habitants.

3o. Les Moluques, dont la principale est *Célèbes*, séparée de Bornéo par le détroit de Macassar; la capitale est *Macassar*. Cette île appartient aux Hollandais.

AUSTRALIE.

Les îles principales de l'Australie sont la Nouvelle-Hollande, Van-Diémen et la Nouvelle-Zélande.

1o. *La Nouvelle Hollande*, appelée aussi Australie, s'étend à plus de 900 lieues de l'ouest à l'est, et à plus de 700 lieues de l'ouest à l'est. Découverte par les Hollandais en 1605, elle appartient aujourd'hui à l'Angleterre. Elle est traversée par la chaîne des montagnes Bleues.

Le climat y est magnifique, le sol en est fertile et produit en abondance les grains et les fruits.

La Nouvelle-Hollande est divisée en 6 colonies, savoir:

A l'est, la Nouvelle-Galles du Sud, dont la capitale est *Sydney*.

Victoria ou Port-Philippe, capitale *Melbourne*.

Queensland, capitale *Brisbane*.

L'Australie méridionale, capitale *Adélaïde*.

L'Australie occidentale, capitale *Perth*.

L'Australie septentrionale.

La population de la Nouvelle-Hollande est d'environ 1,500,000 habitants.

2o. *Van-Diémen* ou *Tasmanie* au sud de la Nouvelle-Hollande, dont la capitale est *Hobart-Town*. Elle appar-

tient aux Anglais, qui y transportent leurs criminels (a). Population, environ 100 mille âmes.

3o. La *Nouvelle-Zélande*, qui est une grande terre divisée en deux parties par le détroit de Cook. Le climat est froid. Population, environ 300 mille habitants. Les Anglais ont fondé, en 1841, une colonie qui progresse rapidement.

POLYNÉSIE SEPTENTRIONALE.

Elle renferme principalement les îles *Pelew*, *Mariannes*, *Carolines*, *Mulgraves* et *Sandwich*.

ILES SANDWICH.

Elles ont été découvertes par Cook en 1778, qui y fut massacré par les natifs en 1779. La principale est *Howahü*. Le commerce de ces îles se fait principalement avec l'Angleterre, la France et les États-Unis. Le roi, dirigé par l'influence anglaise, a introduit, dans ses états sauvages, la civilisation de l'Europe. Les ministres protestants et les sociétés bibliques ont porté dans ces îles leur christianisme ; les missionnaires catholiques y ont aussi pénétré ; mais l'influence des prédicants a longtemps été un obstacle à la conversion de ces insulaires au catholicisme ; et il y a quelques années, le roi, à leur instigation, fit un édit de proscription contre les missionnaires catholiques, leur enjoignant de quitter sans délai ses états. La France étant intervenue, et ayant pris les missionnaires sous sa protection, l'édit de proscription a été révoqué. Le libre exercice de la religion catholique y est maintenant permis. Population, en 1852, environ 70,000 habitants. La capitale de ces îles est *Honolulu*. Les habitants de l'établissement de la rivière *Columbia*,

---

(a) C'est dans cette île qu'ont été déportés, en 1839, les exilés politiques canadiens.

dans l'Amérique Septentrionale, portent aux îles Sandwich leurs productions, et en rapportent du lard et des viandes salées. La population des îles Sandwich va en diminuant.

POLYNÉSIE MÉRIDIONALE.

Elle comprend les îles *Fidji*, des *Amis*, des *Navigateurs*, de la *Société*, l'*Archipel Dangereux*, les *Marquises*, qui appartiennent à la France, et un grand nombre d'autres peu importantes. La plus remarquable de ces îles est celle de *Taïti* ou *Otaïti*, l'une des îles de la Société, appelée la *Reine de l'océan Pacifique;* elle a 39 lieues de circonférence. Elle est sous la protection de la France. Population, environ 100 mille habitants.

La population de l'Océanie est estimée à 45 millions d'habitants, dont 5 millions sont chrétiens; le reste est plongé dans les ténèbres de la plus grossière idolâtrie. La société pour la propagation de la foi catholique a un grand nombre de missionnaires dans l'Océanie qui travaillent avec zèle et succès à la conversion des indigènes.

QUESTIONNAIRE.

De quoi se compose l'Océanie? En combien de parties se divise-t-elle? Quel est son climat et ses productions? les principaux détroits? les montagnes les plus remarquables?

Faites-nous connaître les îles les plus importantes de l'Archipel Indien ou Malaisie.

Quelles sont les îles principales de l'Australie? Donnez quelques notions sur la Nouvelle-Hollande. Comment est-elle divisée? Quelle est sa population? Faites-nous connaître la terre de Van-Diémen; la Nouvelle-Zélande.

Quelles sont les principales îles que renferme la Polynésie septentrionale? Faites-nous connaître les îles Sandwich.

Quelles sont les îles que renferme la Polynésie méridionale? Faites-nous connaître l'île de Taïti, la plus remarquable d'entre elles.

Quelle est la population de l'Océanie, ainsi que l'état religieux de cette partie du monde?

FIN.

Jos. Hebert